النجاح في باكالوريا 2020

مجلة مقترحات فريق عكاشة

العدد - 04

مادة التاريخ والجغرافيا

الأستاذ بورنان

مواضيع مقترحة

- الموضوع الأول
- الموضوع الثاني
- الموضوع الثالث
- الموضوع الرابع
- الموضوع الخامس
- الموضوع السادس
- الموضوع السابع
- الموضوع الثامن
- الموضوع التاسع
- الموضوع العاشر

عكاشة BOOKSTORE
We can help you
يمكننا أن نساعدك

FB: okacha bookstore مكتبة عكاشة
Okacka.bookstore@gmail.com
03 Rue de Stade Ouled Fayet-Alger- Algérie
Tel: 05 40 87 38 02| 06 72 38 82 02|05 60 42 09 93
03 شارع الملعب أولاد فايت الجزائر العاصمة

1ـ موضوع مقترح رقم : 01 العلميين

التاريخ : إضغط هنا للإنتقال إلى قناة الأستاذ بورنان

الجزء الأول: (06 نقاط)

السند:«...إنّ المهام الملقاة على دول عدم الانحياز تتمثل حسب رأينا في ضمان استقلالها الوطني وتحقيق تنميتها لاستكمال هذا الاستقلال وتعزيزه ومناصرة **حركات التحرر**، ومصارعة الصهيونية، والتمييز العنصري... وجميع مظاهر الاستغلال والاستعمار الجديد و**الامبريالية** وتجنب **الأحلاف** والتكتلات وإزالة القواعد العسكرية والعمل على قيام تعاون دولي على أساس المساواة التامة بين الشعوب وتحقيق الديمقراطية في العلاقات الدولية...».

المرجع: مقتطفات من خطاب الرئيس هواري بومدين بمناسبة افتتاح المؤتمر الرابع لحركة عدم الانحياز الجزائر مابين 5 و9 سبتمبر 1973

المطلوب:

1- اشرح المصطلحات التي تحتها خط في السند.

2- أكمل الجدول التالي:

الحدث	تاريخه
مشروع إيزنهاور	.....
.....	8 فيفري 1958
نهاية مؤتمر باندونغ	.....

الجزء الثاني: (04 نقاط)

عرف نهاية القرن 20م زوال القطبية الثنائية إثر انهيار الاتحاد السوفياتي وتفكك المعسكر الشيوعي ، فتوفرت ظروفا سمحت للولايات المتحدة الأمريكية الانفراد بالريادة والزعامة الدولية ، لما ميزها من تفوق اقتصادي وعسكري وتكنولوجي جعلها تفرض نظاما دوليا جديدا .

المطلوب:

انطلاقا من الفقرة واعتمادا على ما درست، اكتب مقالا تاريخيا تبيّن فيه:

1- الأهداف الحقيقية للنظام الدولي الجديد .

2- انعكاسات انفراد الو.م.أ بالزعامة الدولية على العالم الثالث.

We can help you
يمكننا أن نساعدك

الجغرافيا:

الجزء الأول: (06 نقاط)

السند:«...آسيا متعدد الأقطاب...**القطب الاقتصادي** الأول هو اليابان الذي يشكل ثاني قوة اقتصادية في العالم يعتمد في نجاحه على قوة **الشركات المتعددة الجنسيات** ... يتمثل القطب الثاني في **التنينات** التي استفادت من التحول التكنولوجي الياباني، وهي بذلك دول ذات دخل وطني مرتفع، وقوة تجارية ومراكز مالية هامة...».

المصدر: الكتاب المدرسي– جغرافيا– سنة ثالثة ثانوي– ص 108.

المطلوب:

1– اشرح ما تحته خط في السند

2– إليك جدولا يبين نسبة الإنتاج العالمي من البترول حسب المناطق سنة 2017

المناطق	الشرق الأوسط	أمريكا الشمالية	أوروبا – روسيا	إفريقيا	أمريكا الجنوبية	آسيا
نسبة الإنتاج %	33.8	20.9	19.6	8.7	8.5	8.5

المصدر: إحصائيات الشركة الانجليزية لإنتاج البترول بريتش بتروليوم 2018

المطلوب:

- مثّل معطيات الجدول بواسطة دائرة نسبية، نصف قطر(نق) = 3 سم

الجزء الثاني: (04 نقاط)

تعد الو.م.أ كأكبر قوة في العالم مكنتها من قيادة العالم المتقدم وجعله مهيمنا في شتى الميادين.

المطلوب:

انطلاقا من العبارة واعتمادا على ما درست، اكتب مقالا جغرافيا تبيّن فيه:

01– عوامل تطور العالم المتقدم.

02– مظاهر تقدم الو. م.أ كنموذج من العالم المتقدم.

عكاشة BOOKSTORE We can help you يمكننا أن نساعدك

عناصر الإجابة	العلامة مجزأة	العلامة مجموع
التاريخ: **الجزء الأول:** **1- شرح المصطلحات:** **حركات التحرر:** رد فعل وطني شعبي ضد التواجد الاستعماري اتخذ عدة أشكال (سياسي أو عسكري)... برز بعد الحرب العالمية الثانية في كل من إفريقيا، آسيا وأمريكا اللاتينية. **الأحلاف:** عبارة عن تكتلات عسكرية تضم دولا ذات مصالح مشتركة بزعامة إحدى القوتين مثل الناتو، وارسو.... **الامبريالية:** هيمنة اقتصادية وعسكرية وسياسية لدولة ما على دولة أخرى وهي صورة أخرى للاستعمار التقليدي وتمثل أقصى مراحل الرأسمالية. 2- **إكمال الجدول:**	01 01 01	06
الحدث / **تاريخه** مشروع إيزنهاور / **05 جانفي 1957** **أحداث ساقية سيدي يوسف** / 08 فيفري 1958 نهاية مؤتمر باندونغ / **24 أفريل 1955**	01 01 01	
الجزء الثاني: **المقدمة:** العلاقات الدولية بين الاهداف الحقيقية للنظام الدولي الجديد وانعكاسات الاحادية القطبية على العالم الثالث. **1- الاهداف الحقيقية للنظام الدولي الجديد :** -فرض الهيمنة والوصاية الأمريكية على العالم -نشر بؤر التوتر والصراعات -تسخير الهيئات والمنظمات الدولية لخدمة مصالح الو.م.أ -فرض النظام الرأسمالي على دول العالم -استنزاف ثروات الشعوب الضعيفة **2- انعكاسات انفراد الو.م.أ بازعامة على العالم الثالث:** - تحول الصراع من شرق-غرب إلى شمال جنوب . - استنزاف ثروات العالم الثالث . - اتساع الهوة بين العالمين المتقدم والمتخلف . - الاحتلال الأمريكي لافغانستان 2001 والعراق 2003 والتحرشات ببعض الدول الرافضة لسياسة الو.م.أ. - توظيف الهيئات والمنظمات الدولية وقرارات مجلس الأمن ضد الدول الضعيفة باستعمال حق الفيتو. **الخاتمة:** النظام الدولي الجديد في ظل الهيمنة الامريكية اكثر خطورة على العالم الثالث . **(تقبل الإجابات الصحيحة الأخرى)**	0.50 01.5 01.5 0.50	04

عناصر الإجابة	العلامة مجزأة	العلامة مجموع
الجغرافيا :		
الجزء الأول:		
1- شرح المصطلحات:		
• **القطب الاقتصادي:** منطقة أو دولة أو مجموعة دول عرفت بتفوقها الاقتصادي وإنتاجها وتكون محور ومركز للمبادلات مثل اليابان ضمن منطقة شرق آسيا.	01	
• **الشركات متعددة الجنسيات:** عبارة عن مؤسسات اقتصادية ذات أنشطة مختلفة ذات قدرة كبيرة على التحكم في فروعها المنتشرة في مختلف دول العالم خاصة العالم الثالث وبلورة نشاطها الاقتصادي.	01	
• **التنينات الأسيوية:** دول تايوان، سنغافورة، هونغ كونغ وكوريا الجنوبية سميت بهذا الاسم لتحقيقها معدل نمو اقتصادي كبير تحولت إلى بلدان متقدمة ساعدت في نمو اقتصاديات بعض الدول الآسيوية وتعتمد في تطورها على النموذج الياباني.	01	
2- التمثيل البياني بواسطة دائرة نسبية		
الإنجاز.	02	
العنوان.	0.50	
المقياس.	0.25	
المفتاح	0.25	
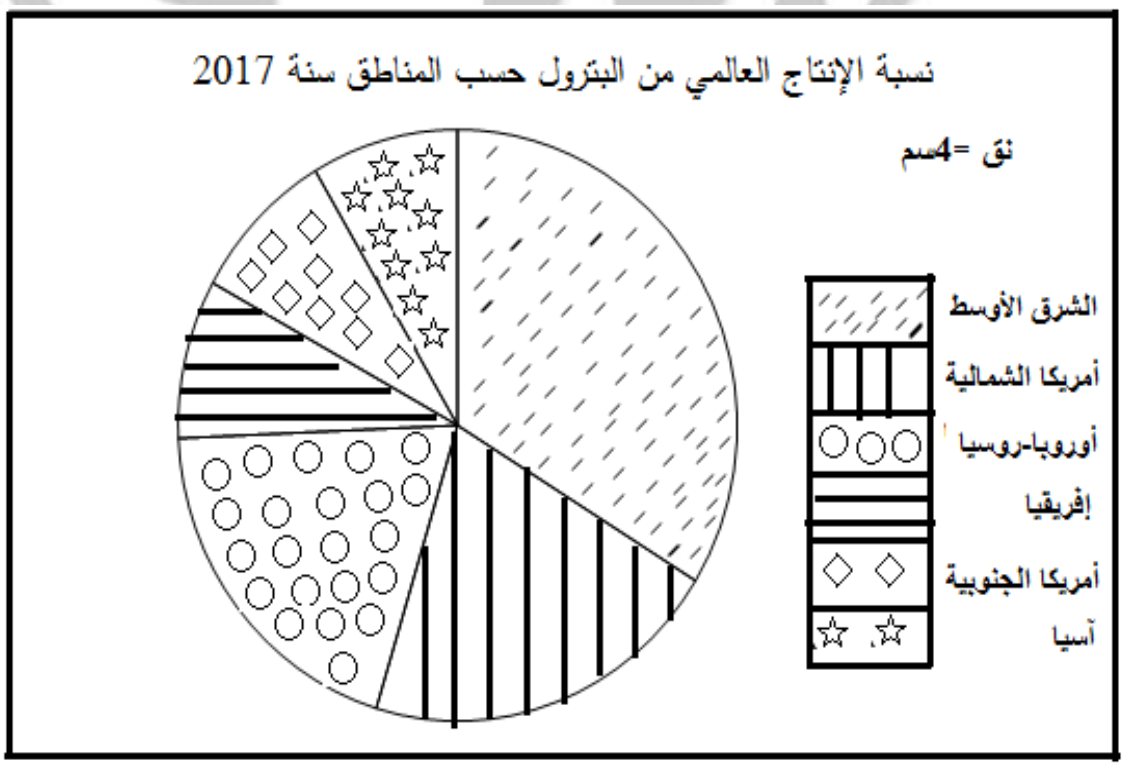		06

عناصر الإجابة	العلامة مجزأة	العلامة مجموع
<u>الجزء الثاني:</u> **<u>المقدمة:</u>** هيمنة العالم المتقدم بزعامة الو.م.أ في شتى الميادين. **<u>عوامل تطور العالم المتقدم:</u>** الاستفادة من الحركة الاستعمارية لفترة طويلة. طبيعة النظام الاقتصادي المطبق. تشجيع البحث العلمي. الاستقرار السياسي. التحكم في التكنولوجيا الحديثة. توفر اليد العاملة المؤهلة. **<u>مظاهر تقدم الو.م.أ كنموذج من العالم المتقدم:</u>** الهيمنة الاقتصادية و السياسية. الهيمنة على المؤسسات المالية والبورصات العالمية. احتلالها المراتب الأولى في الإنتاج الزراعي والصناعي. أكبر مساهم في التجارة العالمية. قوة العملة الأمريكية (الدولار) كعملة عالمية. **<u>الخاتمة :</u>** التقدم مكّن العالم المتطور ودوله الكبرى من فرض هيمنتها في شتى الميادين . (تقبل كل الإجابات الصحيحة الأخرى)	0.50 01.50 01.50 0.50	04

2ـ موضوع مقترح رقم : 02 ـ شعبة التسيير

التاريخ: إضغط هنا للإنتقال إلى قناة الأستاذ بورنان

الجزء الأول: (06 نقاط)

السند:"... لم تحاول أبدا الحكومات المتعاقبة على الحكم بباريس منذ 1954 الوصول إلى حل بالتفاوض، ولم تأخذ بعين الاعتبار قرارات وتوصيات **الأمم المتحدة** والمنظمات الدولية الأخرى كالجامعة العربية والمؤتمرات الإسلامية والمؤتمر الإفريقي والآسيوي...إلخ، حاولت هذه الحكومات الفرنسية أن تفرض حلولها التي فشلت كلها، ومنها فكرة **الإدماج** التي اقترحها "سوستال" الحاكم العام الذي أراد تطبيقها..."

المرجع: بن يوسف بن خدة – اتفاقيات إيفيان– ديوان المطبوعات الجامعية الجزائر– ص 14

المطلوب:

1–اشرح المصطلحات التي تحتها خط في السند.

2–أكمل الجدول التالي:

الحدث	تاريخه
.....	14 ماي 1955
مظاهرات الشعب الجزائري بالمدن الجزائرية	.....

3–وقع على خريطة الجزائر المرفقة الولايات التاريخية لتقسيم 1954.

الجزء الثاني: (04 نقاط)

كان المعسكر الشيوعي قطبا فاعلا ومؤثرا في العلاقات الدولية لما يزيد عن أربعة عقود (1945– 1989) ، إلا أنه عرف تراجعا منذ الثمانينات ، ليختفي نهائيا مع مطلع التسعينات من القرن 20 م من الساحة الدولية ، لتتفرد الولايات المتحدة بالزعامة الدولية .

المطلوب:

انطلاقا من الفقرة واعتمادا على ما درست، اكتب مقالا تاريخيا تبيّن فيه:

1–دور المعسكر الغربي في تفكك وانهيار المعسكر الشرقي .

2–ملامح انفراد الولايات المتحدة الأمريكية بالزعامة الدولية .

الجغرافيا:

الجزء الأول: (06 نقاط)

السند :"...إنّ النمو المتزايد لمنطقة شرق وجنوب شرق آسيا قد يشكل خطر التسارع و لو كان **التضخم** الحالي عاديا (3.9 % في الصين عام 2004) ... وقد تخلصت من التبعية لصادراتها التي بلغت أوجها وأصبح بإمكانها الاعتماد على السوق الداخلية التي شهدت اندماجا تجاريا إقليميا وأصبحت المنطقة مركز جلب **التدفقات المالية** بشكل كبير."

المصدر: الكتاب المدرسي س3

ص103

المطلوب:

1- اشرح المصطلحات التي تحتها خط في السند.

2- إليك جدولا يمثل بعض الدول المصدرة والمستوردة للنفط سنة 2015.

الدول المصدرة	الكمية (مليون طن)	الدول المستهلكة	الكمية (مليون طن)
المملكة العربية السعودية	302	الصين	245
روسيا	188	اليابان	242
النرويج	141	الهند	97

المصدر: الصور الاقتصادية للعالم 2016

المطلوب:

- مثّل معطيات الجدول بواسطة أعمدة بيانية وفق مقياس رسم: 1 سم ⟵ 50 مليون طن.

1 سم ⟵ عمود

3- وقّع على خريطة العالم المرفقة الدول الواردة في الجدول.

الجزء الثاني: (04 نقاط)

تؤكد الأرقام والحقائق الاقتصادية المتداولة سيطرة العالم المتقدم على المبادلات العالمية وحركة رؤوس الأموال ، مما سمح له بفرض نظام اقتصادي عالمي يتماشى مع مصالحه .

المطلوب:

انطلاقا من الفقرة واعتمادا على ما درست، اكتب مقالا جغرافيا تعالج فيه ما يلي:

1- مظاهر هيمنة العالم المتقدم على المبادلات التجارية وحركة رؤوس الأموال.

2- انعكاسات هذه الهيمنة على العالم المتخلف .

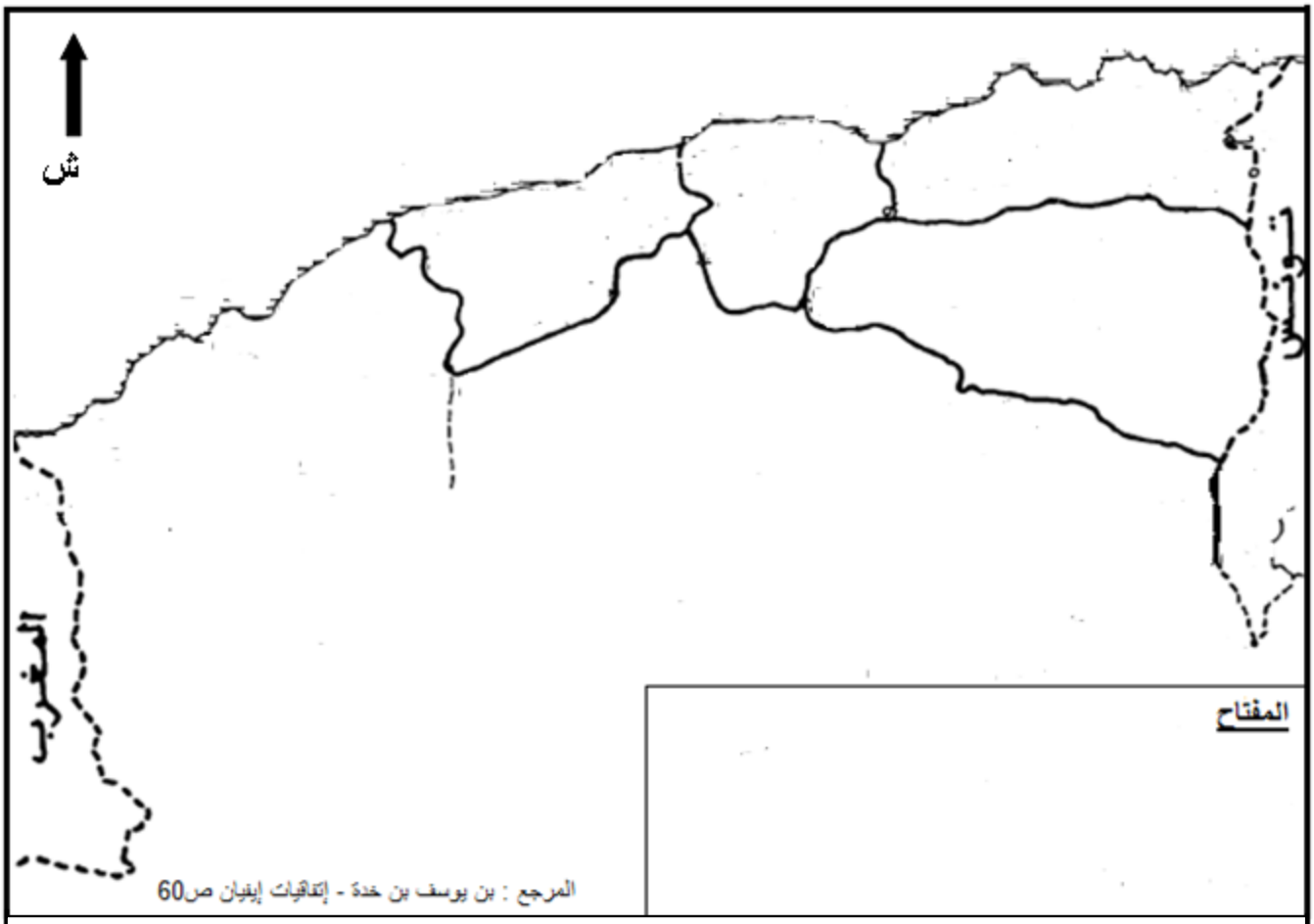

ينجز العمل المطلوب على الخريطة ويعاد مع أوراق الإجابة

عكاشة BOOKSTORE
We can help you
يمكننا أن نساعدك

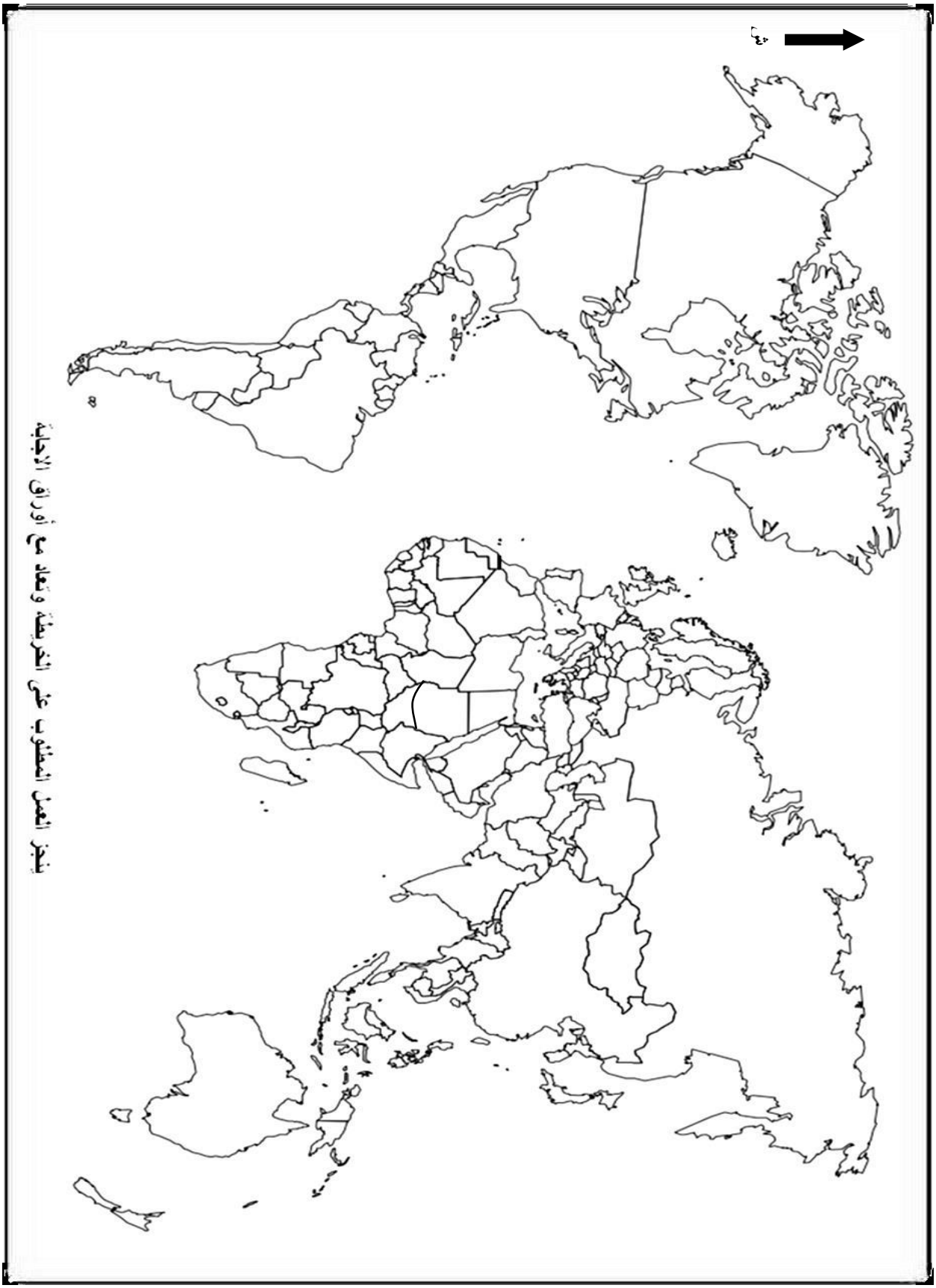
ينجز العمل المطلوب على الخريطة وتعاد مع أوراق الإجابة

عناصر الإجابة	العلامة مجزأة	العلامة مجموع
التاريخ :		
الجزء الأول:		
1- شرح المصطلحات:		
- **الأمم المتحدة** :هيئة دولية أنشأت يوم 24 أكتوبر 1945 بهدف حماية الأمن و السلم العالميين مقرها في مدينة نيويورك الأمريكية تضم اغلب دول العالم المستقلة جاءت خلفا لعصبة الامم .	01	
- **الإدماج** :يقصد به دمج المجتمع الجزائري في المجتمع الفرنسي من خلال محاولة إبعاد الشعب الجزائري عن الثورة وذلك باعتماد إصلاحات متعددة في إطار مشروع سوستال 1955.	01	
2- إكمال الجدول		
الحدث: **تأسيس حلف وارسو** — تاريخه: 14 ماي 1955	01	06
الحدث: مظاهرات الشعب الجزائري بالمدن الجزائرية — تاريخه: **11 ديسمبر 1960**	01	
3- التوقيع على خريطة الجزائر		
الإنجاز.	01.50	
العنوان : الولايا ت التاريخية حسب تقسيم 1954.	0.25	
المفتاح.	0.25	
الجزء الثاني:		
المقدمة : العلاقات الدولية من الثنائية القطبية بزعامة القوتين إلى الأحادية وانفراد الولايات بالزعامة الدولية.	0.50	
العرض : دور المعسكر الغربي في انهيار المعسكر الشرقي :		
- إتباع الولايات المتحدة الأمريكية سياسة الاحتواء والتطويق .		
- دعم الحركات الانفصالية والمعارضة في دول المعسكر الشيوعي .		
- توريط الاتحاد السوفياتي في أزمات وحروب مكلفة (أفغانستان) .	01.50	
- دور الفاتيكان والكنيسة في التعجيل بانهيار المعسكر الشيوعي .		
ملامح انفراد الولايات المتحدة الأمريكية بالزعامة الدولية :		04
- زوال الثنائية القطبية وبروز الأحادية القطبية .		
- توظيف المؤسسات الدولية الفاعلة لخدمة مصالحا .	0.25	
- تراجع دور حركة عدم الانحياز في السياسة الدولية .	0.25	
- اتخاذ قرارات خارج الشرعية الدولية وتوظيف حق الفيتو .	0.25	
- الاحتلال الامريكي لافغانستان 2001 والعراق 2003 .	0.50	
الخاتمة: خطورة الوضع الدولي في ظل الأحادية القطبية .	0.25	
	0.50	

عناصر الإجابة	العلامة مجزأة	العلامة مجموع
الجغرافيا: **الجزء الأول:** **1- شرح المصطلحات :** - **التضخم:** يعرّف بأنه الانخفاض في القيمة الحقيقية لوحدة النقد، كما يعرّف بأنه الارتفاع المتزايد في أسعار السلع الاستهلاكية والخدمات. - **التدفقات المالية:** ويقصد بها حركة رؤوس الأموال من دولة إلى أخرى من خلال البورصات وهي أنواع مثل الاستثمارات المباشرة وتحويلات المهاجرين وتسديد الديون الخارجية ... **2- الرسم بواسطة الأعمدة البيانية:** الإنجاز. العنوان. المقياس. 3- التوقيع على خريطة العالم. - الإنجاز. - العنوان. - المفتاح.	01 01 01.50 0.25 0.25 01.50 0.25 0.25	06
الجزء الثاني: **مقدمة :** حركة المبادلات التجارسة ورؤوس الأموال بين هيمنة العالم المتقدم وانعكاساتها على العالم المتخلف . العرض : **1- مظاهر هيمنة العالم المتقدم على المبادلات التجارية وحركة رؤوس الأموال :** - سيطرة الدول المتقدمة على حركة رؤوس الأموال والمبادلات التجارية (الهيمنة 80 % من التجارة العالمية). - كل المبادلات التجارية العالمية تتم بعملات العالم المتقدم خاصة الدولار الأمريكي. - تمركز البورصات الكبرى في دول العالم المتقدم (وولت ستريت – لندن – باريس ..). - تمركز البنوك والمؤسسات المالية الكبرى بدول العالم المتقدم (صندوق النقد الدولي – البنك العالمي..). - هيمنة شركاته الاحتكارية على تجارة المواد الاستراتيجية (المواد الغذائية والطاقة) . **2- انعكاسات هذه الهيمنة على العالم المتخلف:** - تهميش دور العالم المتخلف في المبادلات العالمية أقل من 20% . - تراكم الديون مما يجهض مشاريع التنمية. - الضغوطات السياسية والاقتصادية الممارسة ضد العالم المتخلف (التدخل في شؤونه). - عدم قدرته على اتخاذ القرارات السيادية في مختلف المجالات. - اتساع الهوة بين العالمين المتقدم والمتخلف . **الخاتمة:** اعادة النظر في النظام المالي والتجاري العالمي وفق قواعد عادلة أصبح ضرورة ملحة ، ولتحقيق ذلك على دول العالم المتخلف التكتل فيما بينها .	0.50 01.50 01.50 0.50	04

عناصر الإجابة	العلامة	
	مجزأة	مجموع

2- التوقيع على خريطة الجزائر

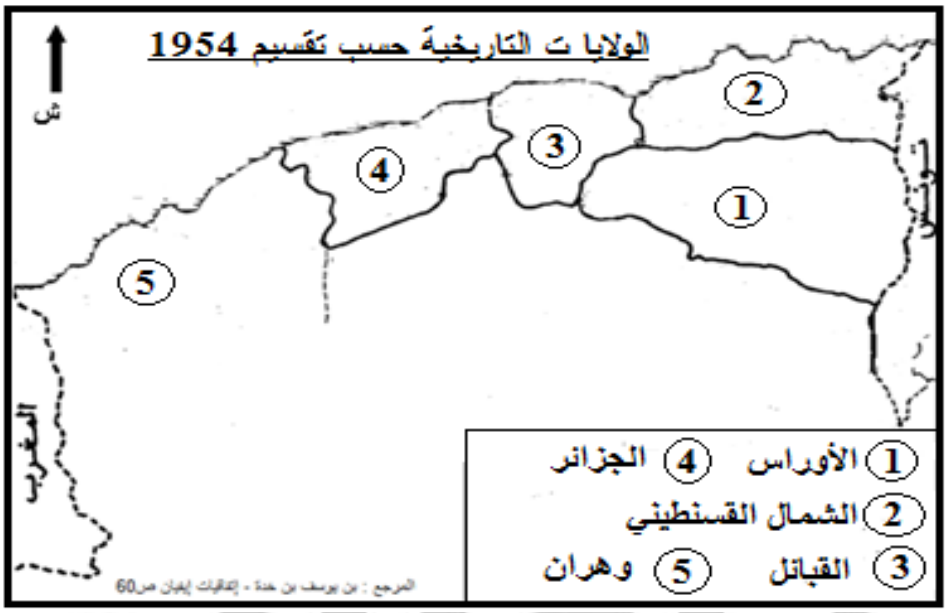

3- التمثيل بواسطة الأعمدة البيانية



We can help you
يمكننا أن نساعدك

عناصر الإجابة	العلامة	
	مجزأة	مجموع

4- التوقيع على خريطة العالم

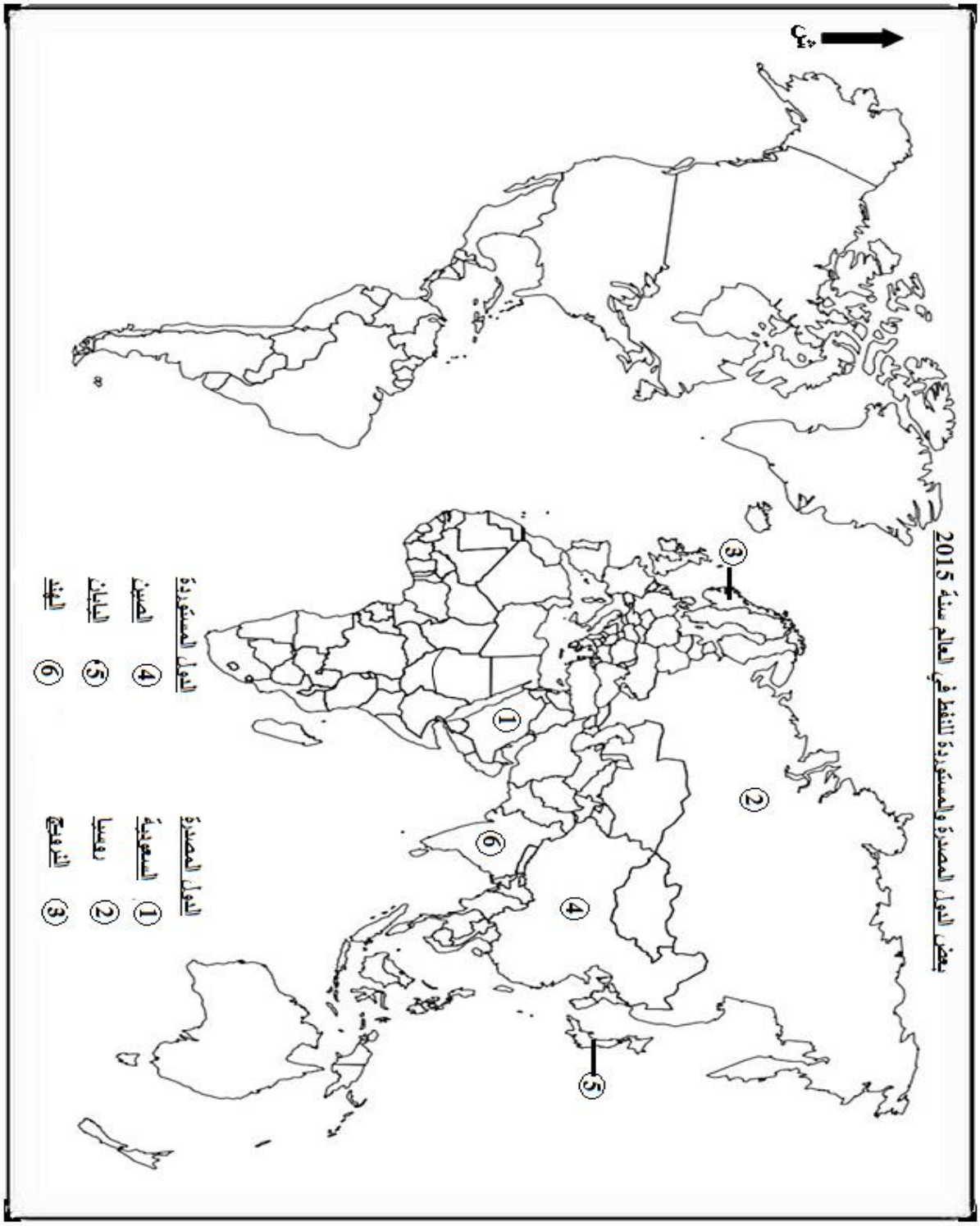

3ـ موضوع مقترح رقم : 03 ـ شعبة اللغات

التاريخ: إضغط هنا للإنتقال إلى قناة الأستاذ بورنان

الجزء الأول: (06 نقاط)

السند:"... بعد غياب الاتحاد السوفياتي ك**قطب دولي** مؤثر في السياسة الدولية، تعرض التوازن الدولي إلى خلل كبير إيذانا بنهاية القطبية الثنائية وبداية عهد **قطبية أحادية** مثلتها الولايات المتحدة الأمريكية والمناداة بما أسمته **النظام الدولي الجديد**، وتراجع وضعف دول الجنوب... "

المرجع:عبد العظيم جبري حافظ–النظام الدولي الجديد

المطلوب:

1– اشرح المصطلحات التي تحتها خط في السند.

2– أكمل الجدول التالي :

الحدث	تاريخه
اتفاقية سالت 1	.....
.....	08 فيفري 1958
اضراب الطلبة الجزائريين والتحاقهم بالثورة	.....

الجزء الثاني: (04 نقاط)

إنّ المعركة حول بساط المفاوضات لا تقل خطورة عن الحرب المسلّحة ويمكن للعدو أن يستعملها لضرب الوحدة وتنمية روح الاستسلام.

المطلوب:

انطلاقا من الفقرة واعتمادا على ما درست، اكتب مقالا تاريخيا تبيّن فيه:

1– دواعي قبول فرنسا لمبدأ التفاوض مع جبهة التحرير الوطني.

2– المطالب التي تمسك بها الوفد الجزائري المفاوض.

الجغرافيا:

الجزء الأول: (06 نقاط)

السند:"... تعمل الجزائر حاليا على تنويع صادراتها بما في ذلك منتجاتها النفطية من (المكتب الجزائري لتشجيع **التجارة الخارجية**) وأعلن وزير التجارة الجزائرية في 2005/02/26 إنّ الجزائر تأمل للانضمام إلى **منظمة التجارة العالمية** قبل نهاية 2005، وقال إن الجزائر تخلت عن **الاقتصاد الموجه** وفتحت السوق للمنافسة وألغت السعر الأدنى للتصدير..."

المرجع: الكتاب المدرسي سنة ثالثة ثانوي جغرافيا ص 168

المطلوب:

1- اشرح المصطلحات التي تحتها خط في السند.

2- إليك جدولا يبيّن معدلات البطالة في بعض دول العالم سنة 2017 م.

الدولة	اليابان	ألمانيا	الو .م . أ	إيران	الجزائر	بوتسوانا
النسبة %	3.0	4.2	4.9	11.3	11.4	18.6

المصدر: الإحصائيات العالمية طبعة عام 2017 م

المطلوب:

- مثّل أرقام الجدول بواسطة أعمدة بيانية بمقياس رسم: 1 سم ⟵ 2 %

1 سم ⟵ دولة

الجزء الثاني: (04 نقاط)

توجهت أوروبا بعد الحرب العالمية إلى إتباع سياسة التكتل والاندماج واعادة ترتيب البيت الأوروبي قصد استعادة مكانتها السياسة والاقتصادية .

المطلوب:

انطلاقا من العبارة واعتمادا على ما درست، اكتب مقالا جغرافيا تبيّن فيه:

1- الأهداف السياسية والاقتصادية للاتحاد الأوروبي .

2- ملامح التفوق الاقتصادي للاتحاد الأوروبي .

BOOKSTORE
We can help you
يمكننا أن نساعدك

الشعب الأدبية والتسيير

الشعب العلمية واللغات



عُكاشة
BOOKSTORE
We can help you
يمكننا أن نساعدك

FB: okacha bookstore مكتبــة عكــاشة

Okacka.bookstore@gmail.com

03 Rue de Stade Ouled Fayet-Alger- Algérie

Tel: 05 40 87 38 02| 06 72 38 82 02|05 60 42 09 93

03 شارع الملعب أولاد فايت الجزائر العاصمة

عناصر الإجابة	العلامة مجزأة	العلامة مجموع
التاريخ : **1- شرح المصطلحات:** **قطب دولي:** ويقصد به الدولة المحورية المهيمنة سياسيا واقتصاديا وعسكريا، والتي تسير في فلكها مجموعة من الدول المؤيدة لها كالولايات المتحدة الأمريكية والإتحاد السوفياتي في ظل القطبية الثنائية (1945 – 1989) أو الو.م.أ في ظل القطبية الأحادية منذ 1990. - **النظام العالمي الجديد:** هو نظام أحادي القطب تتزعمه الو. م.أ ظهر بعد نهاية الحرب الباردة (قمة مالطا1989) من قبل الرئيس الأمريكي جورج بوش" الأب " وهو تصور للعلاقات الدولية وفق المنظور الأمريكي. **_ قطبية أحادية :** نظام دولي جديد بعد انهيار المعسكر الشرقي الشيوعي 1989 وانفراد المعسكر الغربي الرأسمالي بزعامة الولايات المتحدة الأمريكية ، وتسيير العالم وفقا لمصالح المعسكر الغربي **إكمال الجدول:**	01 01 01 01 01 01	06
الجزء الثاني **المقدمة:** رضوخ فرنسا للمفاوضات حتمية أملتها قوة الثورة الجزائرية. **1. دواعي قبول فرنسا لمبدأ التفاوض مع جبهة التحرير الوطني:** – النفقات العسكرية الباهظة التي أفلست الخزينة الفرنسية. – قوة الثورة ونجاحها داخليا وخارجيا. – عجز فرنسا عن تحقيق انتصارات وفشل مخططاتها العسكرية والسياسية والاغرائية. – نجاح الثورة في المحافل الدولية (هيئة الأمم المتحدة) – اهتزاز مكانة فرنسا الخارجية. – تهديد فرنسا بالحرب الأهلية بسبب التمرّدات والاضطرابات. **2. المطالب التي تمسك بها الوفد الجزائري المفاوض:** – الوحدة الترابية. – الوحدة الشعبية. – الاستقلال التام. – جبهة التحرير الوطني الممثل الشرعي والوحيد. – وقف إطلاق النار. **الخاتمة:** تماسك الثورة و استمرارها جعل العدو يرضخ للأمر الواقع. **(تقبل كل الإجابات الصحيحة الأخرى)**	0.50 1.50 1.50 0.50	04

الحدث	تاريخه
اتفاقية سالت 1	**26 ماي 1976**
قصف ساقية سيدي يوسف	08 فيفري 1958
اضراب الطلبة الجزائريين والتحاقهم بالثورة	**19 ماي 1956**

عكاشة BOOKSTORE We can help you إمكننا أن نساعدك

عناصر الإجابة	العلامة	
	مجزأة	مجموع
الجغرافيا:		
الجزء الأول:		
1- شرح المصطلحات:		
- **التجارة الخارجية:** نعني بها المبادلات التجارية الخارجية بين الدول من خلال التصدير و الاستيراد.	01	
- **المنظمة العالمية للتجارة:** هي منظمة عالمية تعمل على تحرير التجارة العالمية عن طريق إلغاء الحواجز الجمركية بين الدول ويوجد مقرها في جنيف بسويسرا تأسست في1995 على أنقاض الغات.	01	06
- **الاقتصاد الموجه:** ويقصد به الاقتصاد الاشتراكي الذي يقوم على الملكية العامة لوسائل الإنتاج وتوجيهه وفق ما يخدم المصلحة العامة للدولة.	01	
2- التمثيل البياني بواسطة أعمدة		
- الانجاز.	02	
- العنوان.	0.50	
- مقياس الرسم.	0.25	
- المفتاح.	0.25	

الأستاذ بورنان
عكاشة BOOKSTORE
We can help you
يمكننا أن نساعدك

الجزء الثاني: **المقدمة:** سياسة التكتل في الاتحاد الاوروبي بين الأهداف المرجوة وملامح قوته الاقتصادية . **3- الاهداف السياسية والاقتصادسة للاتحاد الاوروبي :** **أ- السياسية :** - استرجاع مكانة اوروبا الدولية . - تجاوز الأحقاد التاريخية وتوحيد مواقف اوروبا السياسية . - مواجهة الهيمنة الأمريكية . **ب- الاقتصادية :** - استرجاع مكانة اوروبا الاقتصادية التي فقدتها بعد الحرب ع 2 . - تحقيق تكامل اقتصادي بين الدول الاعضاء . - اقامة سوق اوروبية مشتركة والغاء الحواجز الجمركية . - تحقيق التقدم الاقتصادي وبناء اوروبا الخضراء . **4- ملامح التفوق الاقتصادي للاتحاد الأوروبي:** - يعتبر الاتحاد أول قوة تجارية عالمية يهيمن على 40 % من المبادلات التجارية . - ثاني أكبر منتج للسيارات في العالم بعد الصين . - احتلاله المراتب الأولى في الإنتاج الصناعي الزراعي (الحبوب المرتبة 2 عالميا) . - يعتبر الاتحاد ثاني قطب اقتصادي عالمي . - قوة عملة الاتحاد الاوروبي اليورو ومنافستها للدولار وعملات اخرى . - ثالث قوة مصدرة للتكنولوجيا في العالم . **الخاتمة** : سياسة التكتل لدول الاتحاد الاوروبي مكنتها ان تصبح قوة اقتصادية عالمية منافسة وتسترجع مكانتها السياسية والاقتصادية التي فقدتها بعد الحرب العالمية 2 . **(تقبل كل الإجابات الصحيحة الأخرى)**	0.50 0.25 × 6 0.25 0.25 0.50 0.25 0.25 0.50	04

عناصر الإجابة	العلامة	
	مجزأة	مجموع
التمثيل البياني بواسطة الأعمدة		

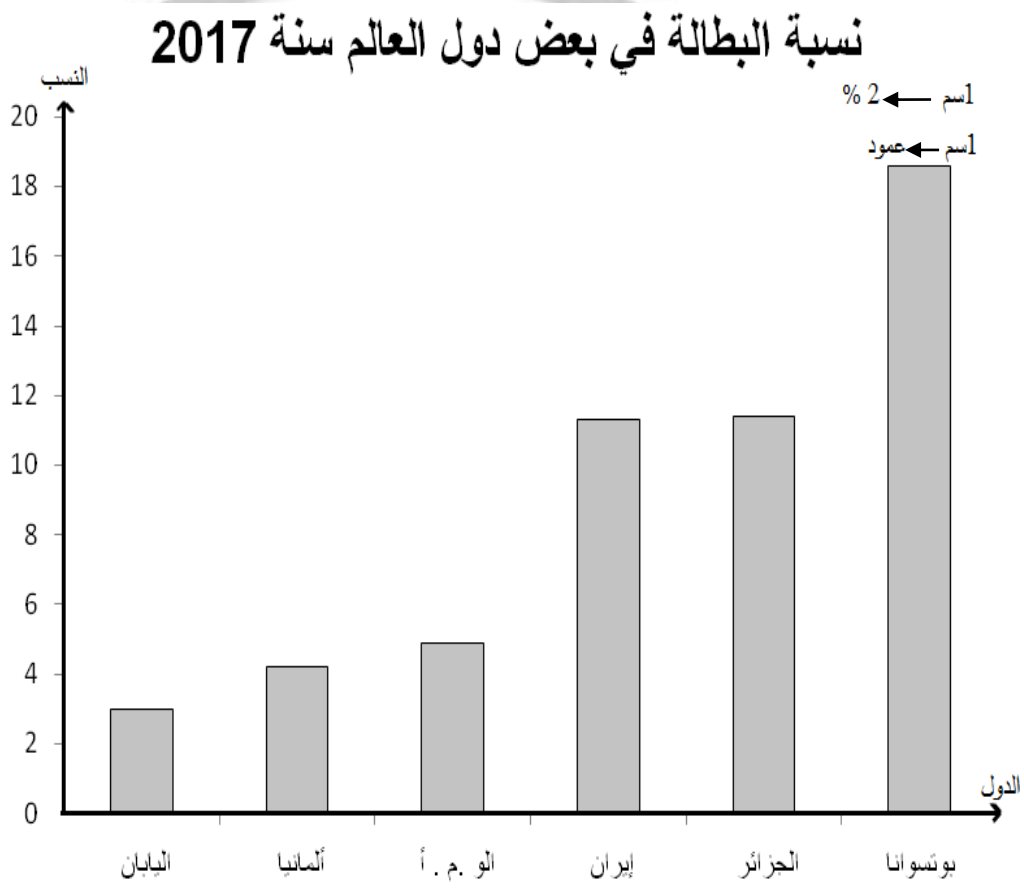

عكاشة BOOKSTORE We can help you يمكننا أن نساعدك

4ـ موضوع مقترح رقم : 04 ـ شعبة الأداب

التاريخ: إضغط هنا للإنتقال إلى قناة الأستاذ بورنان

الجزء الأول: (06 نقاط)

السند: " أما دول العالم الثالث، ففي اجتماع قمة **دول عدم الانحياز** عام 1992 حذَّر سوهارتو من أن **النظام الدولي الجديد** لا يجب أن يُسمحَ له أن يُصبح صورة جديدة للصور القديمة من سيطرة القوي على الضعيف. وفي نفس الاجتماع حذَّر السكرتير العام للأمم المتحدة بطرس غالي من أن **سياسة الاحتواء** سواء عالميا أم إقليميا ما زالت قائمة ..."

المرجع : د. أمين شلبي – من الحرب الباردة إلى البحث عن نظام دولي جديد– ص 181

المطلوب:

1– اشرح المصطلحات التي تحتها خط في السند.

2– أكمل الجدول التالي:

الحدث	تاريخه
حل مكتب الكومنفورم	.....
.....	20 جوان 1963
تأسيس الحكومة الجزائرية المؤقتة	.....

3–على خريطة العالم المرفقة وقع دولتان شكلتا أزمة من أزمات الحرب الباردة خارج أوروبا، و دولتان من دول الكتلة الغربية الرأسمالية

الجزء الثاني: (04 نقاط)

لم تكن مساعي الانفراج الدولي ثمرة قناعة القوتين بل كانت ضرورة أملاها تطور وسائل الدمار.

المطلوب:

انطلاقا من الفقرة واعتمادا على ما درست، أكتب مقالا تاريخيا تبرز فيه:

1– دواعي التقارب بين القوتين .

2– اثر التقارب بين القوتين على العالم .

الجغرافيا:

الجزء الأول: (06 نقاط)

« ...تم توقيع اتفاقية الشراكة الأورو متوسطية بين الجزائر و**الاتحاد الأوربي** في أفريل 2002، وفيما يتعلق بعنصر **التجارة الحرة** ... تعهدت الجزائر بإلغاء الضريبة على وارداتها من السلع المصنعة من دول الاتحاد وتعهدت الجزائر أيضا بخفض **التعريفة الجمركية** على المنتجات الزراعية الواردة من دول الاتحاد ... ».

المرجع: الكتاب المدرسي- الثالثة ثانوي جغرافيا- ص 168

1- عرّف المصطلحات التي تحتها خط في السند.

2- إليك جدولا يبرز نسبة نمو اقتصاديات بعض دول العالم سنة 2018

الدولة	الو. م. أ	الصين	اليابان	ألمانيا	الهند	بريطانيا	البرازيل	إيطاليا	كندا
النسبة المئوية للنمو	02.4 %	06.4 %	01.2 %	02 %	07.4 %	01.8 %	02.4 %	01.3 %	02.2 %

المصدر: focus economics 2018

المطلوب:

- علّق على الجدول.

3- وقّع على خريطة العالم المرفقة 04 دول على أن تكون دولتان من كل قارة من الدول الواردة في الجدول.

الجزء الثاني: (04 نقاط)

إن منطقة شرق وجنوب شرق آسيا أصبحت بكل المقاييس أكثر غنى وقوة وأهمية ، يعيش بها ما يقارب نصف سكان العالم ، تضاعف الدخل الفردي في بعض دولها سبع مرات ...

المطلوب:

انطلاقا من العبارة، واعتمادا على ما درست، اكتب مقالا جغرافيا تبرز فيه:

1- دعائم القوة الاقتصادية لمنطقة شرق وجنوب شرق آسيا.

2- مظاهر تفوق المنطقة اقتصاديا على الصعيد العالمي .

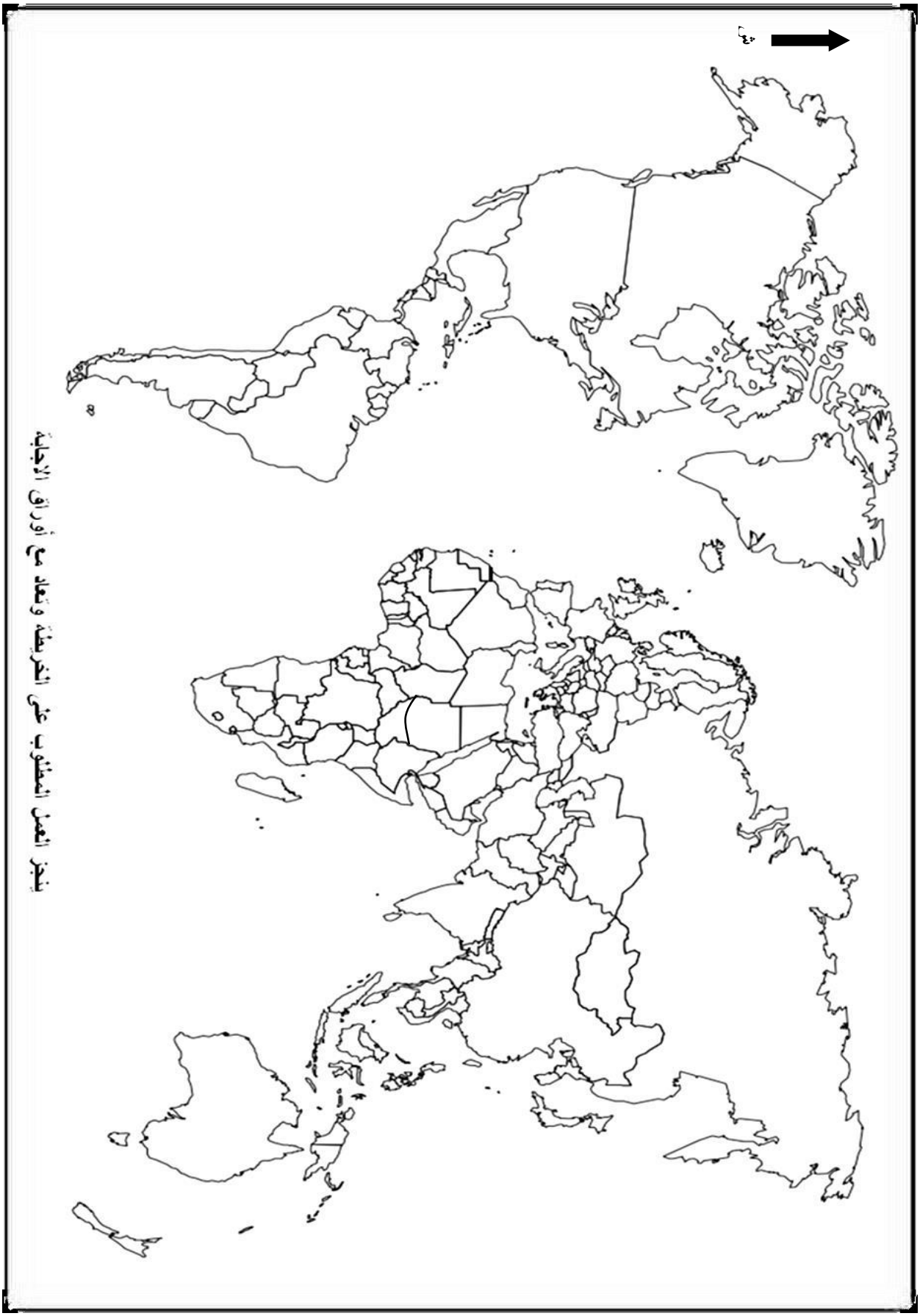
ينجز العمل المطلوب على الخريطة وتعاد مع أوراق الإجابة

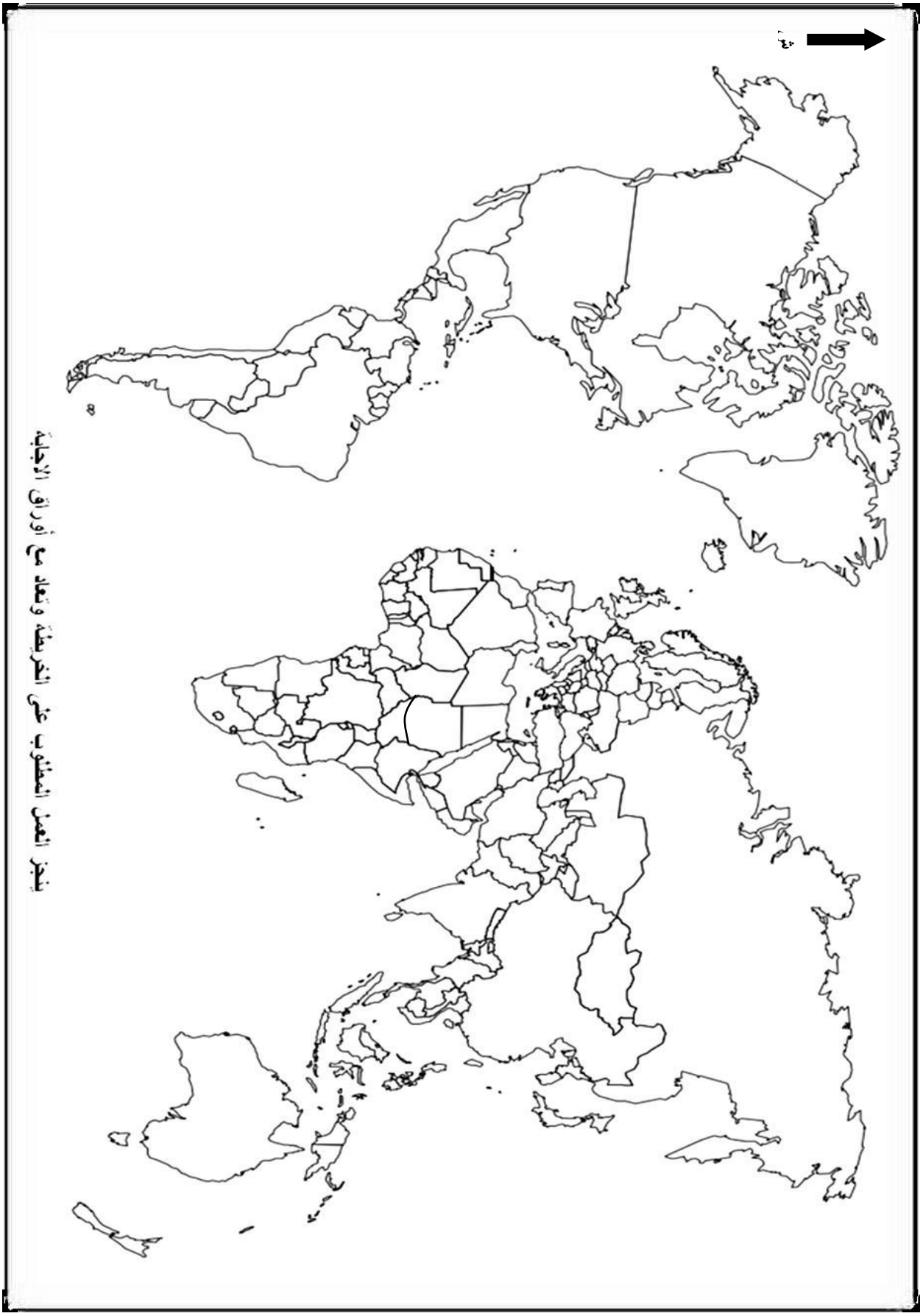
ينجز العمل المطلوب على الخريطة وتعاد مع أوراق الإجابة

عناصر الإجابة	العلامة مجزأة	العلامة مجموع
التاريخ: **الجزء الأول:** **1- شرح المصطلحات:** - **دول عدم الانحياز:** تنظيم سياسي تأسس ببلغراد 1961 يضم الدول حديثة الاستقلال والتي اختارت سياسة الحياد الإيجابي. - **النظام الدولي الجديد:** هو نظام أحادي القطب تتزعمه الو م أ ظهر بعد نهاية الحرب الباردة (قمة مالطا1989) من قبل الرئيس الأمريكي جورج بوش"الأب " وهو تصور للعلاقات الدولية وفق المنظور الأمريكي. - **سياسة الاحتواء:** سياسة طبقتها الو. م.أ أثناء الحرب الباردة لتطويق وعزل الإتحاد السوفييتي ومنع انتشار الشيوعية وذلك عبر إنشاء أحلاف و قواعد عسكرية..... **2- إكمال الجدول:** الحدث: حل مكتب الكومنفورم — تاريخه: **17 أفريل 1956** الحدث: **انشاء الخط الهاتفي الأحمر** — تاريخه: 20 جوان 1963 الحدث: تأسيس الحكومة الجزائرية المؤقتة — تاريخه: **19 سبتمبر 1958** **3- التوقيع على الخريطة:** الإنجاز: العنوان: المفتاح:	0.50 01 0.50 0.50 0.50 0.50 02 0.25 0.25	06
الجزء الثاني: **المقدمة :** التقارب بين القوتين ضرورة ملحة أملتها خطورة الحرب الباردة ومظاهر التوتر بينهما حول مناطق النفوذ. **1- دواعي التقارب بين القوتين :** - توازن الرعب النووي بين القوتين واستحالة التفوق - تغير قيادات البلدين المتشددة - دور حركة عدم الانحياز في التخفيف من الصراع - ظهور انشقاقات داخل الكتلتين - تزايد نفقات الحرب الباردة وتضرر السوفيات والمعسكر الشرقي **2- اثر التقارب بين القوتين على العالم :** - انهاء بعض الازمات بالطرق السلمية (أزمة كوبا) - تجنيب العالم من حرب عالمية ثالثة - تجتيب العالم من حرب نووية بين القوى - تخفيف حدة الصراع والتوتر بين المعسكرين - الاعتراف السوفياتي بألمانيا الغربية ، والأمريكي بالصين الشعبية **الخاتمة:** التقارب في العلاقات بين القوتين (الو.م.أ والسوفيات) أنقذ العالم من صراعات وحروب نووية قد تهدد الأمن العالم . **(تقبل أي إجابة صحيحة أخرى)**	0.50 1.50 1.50 0.50	04

عناصر الإجابة	العلامة مجزأة	العلامة مجموع
الجغرافيا :		
الجزء الأول:		
1- <u>شرح المصطلحات:</u>		
- **الاتحاد الأوروبي :** تكتل اقتصادي سياسي ثقافي اجتماعي تأسس بموجب معاهدة روما 1957 ويبلغ تعداد دوله 28 دولة وتعود جذور تأسيسه لاتحاد البنلوكس 1944 ويعتبر من أهم الأقطاب الإقتصادية العالمية ، يهدف لتحقيق التعاون والتكامل بين دوله .	0.75	
- **التجارة الحرة:** يقصد بها النشاط التجاري الممارس بشكل حر بعيدا عن القيود الجمركية ضمن ما يعرف بمناطق التجارة الحرة.	0.50	
- **التعريفة الجمركية:**جملة الموانع و الشروط و الرسوم التي تفرضها دولة ما على البضائع الأجنبية بهدف توفير إيرادات للخزينة وحماية الإنتاج المحلي من المنافسة.	0.75	06
2- <u>التعليق على الجدول</u> :		
جدول إحصائي اقتصادي يبين لنا نسبة نمو اقتصاديات بعض دول العالم سنة 2018 ومنه نلاحظ:	0.25	
- التباين في نسب النمو بين الدول الواردة في الجدول .	0.25	
- ارتفاع نسبة النمو الاقتصادي في كل من الهند 07.4 %، الصين 06.4 % وهي من الدول الناشئة.	0.50	
- انخفاض نسبة النمو الاقتصادي في اليابان 01.2% و إيطاليا 01.3 % رغم كونها دول صناعية كبرى	0.50	
- تقارب نسبة النمو في بعض الدول رغم تباين مكانتها الاقتصادية (الو.م.أ ، البرازيل) .	0.25	
- نستخلص أن هناك مجموعتين : مجموعة الدول المتقدمة الكبرى و المجموعة الثانية مجموعة الدول الناشئة (كالصين ، الهند ، البرازيل).	0.25	
3- <u>التوقيع على خريطة العالم :</u>		
الإنجاز	01.50	
العنوان و المفتاح	0.50	

عكاشة BOOKSTORE
We can help you
يمكننا أن نساعدك

الجزء الثاني: **المقدمة:** منطقة شرق وجنوب شرق آسيا بين دعائم (العوامل) القوة الاقتصادية والمكانة الاقتصادية الرائدة على الصعيد العالمي . **1- <u>دعائم القوة الاقتصادية لمنطقة شرق وجنوب شرق آسيا :</u>** • القوة الديمغرافية التي تقدر بحوالي 2 مليار نسمة (سوق استهلاكية واسعة) • الاستثمار في الموارد البشرية ودعم وتشجيع البحث العلمي • ارتفاع نسبة الفئة النشطة ووفرة اليد العاملة ذات الخبرة والمهارة العالية • سرعة التكيف مع التطور التكنولوجي واستيعاب احدث الاساليب العلمية • انخفاض أجور اليد العاملة مما ساهم في خفض كلفة الانتاج **2- <u>مظاهر تفوق المنطقة على الصعيد العالمي</u> :** - ارتفاع معدل النمو الاقتصادي في دول المنطقة نافس الدول المتطورة - احتكار حوالي 21 من المبادلات التجارية العالمية - استحواذ المنطقة على ربع الثروة العالمية - غزوها للاسواق بما فيها الاسواق الكبرى مع التركيز على تصدير المواد الصناعية - احتلال دول المنطقة المراتب الاولى عالميا في الكثير من المنتوجات الصناعية والزراعية - استقطاب المنطقة للاستثمارات المالية العالمية **الخاتمة :** حسن استثمار العنصر البشري أساس تفوق دول منطقة شرق وجنوب شرق آسيا . **<u>(تقبل جميع الإجابات الصحيحة الأخرى)</u>**	0.50 1.50 0.75 0.75 0.50	04

عكاشة BOOKSTORE We can help you يمكننا أن نساعدك

عناصر الإجابة	العلامة	
	مجزأة	مجموع

3- التوقيع على خريطة العالم (جغرافيا)

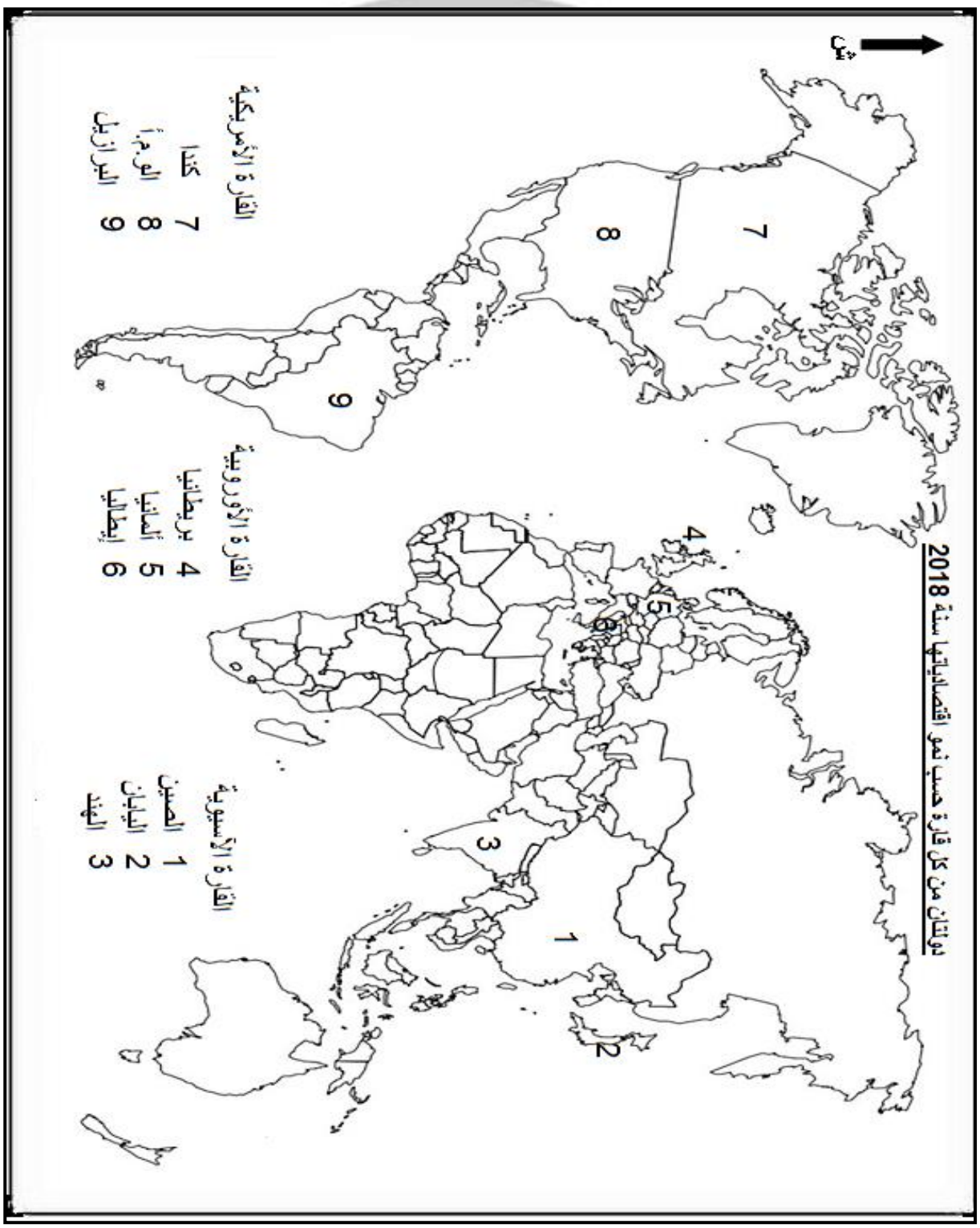

5ـ موضوع مقترح رقم : 05 ـ مستخرج من كتاب السلسلة الخضراء

التاريخ:

إضغط هنا للإنتقال إلى قناة الأستاذ بورنان

الجزء الأول: (6 نقاط)

1) "... بدأت السلطات الفرنسية بالاتصال مع **جبهة التحرير الوطني** قبل أن تعترف فرنسا رسميا بالجبهة كطرف محارب، وتدخل معها في **مفاوضات** رسمية، بصفتها الممثل الشرعي والوحيد للشعب الجزائري، وكان هدف فرنسا من هذه الاتصالات الشبيهة بالرسمية هو محاولة للمساومة مع قادة الثورة لإيقاف القتال، لكن قادة الثورة كانوا في كل مرة يؤكدون على مواقف الثورة الثابتة التي حددها **بيان أول نوفمبر**..."

المرجع: أزغيدي محمد لحسن، مؤتمر الصومام وتطور ثورة التحرير الوطني الجزائرية ص 229

المطلوب:

1) اشرح ما تحته خط في النص.

2) عرف بالشخصيات الآتية: - كريم بلقاسم - جورج مارشال - هوشي منه.

الجزء الثاني: (4 نقاط)

بعد صراع مرير بين المعسكرين في إطار الحرب الباردة اقتنع الطرفان باستحالة الاستمرار في هذا الوضع، وضرورة التوجه نحو التفاهم والتعاون عوض المواجهة.

المطلوب: انطلاقا من الفقرة واعتمادا على ما درست، اكتب مقالا تاريخيا تبرز فيه:

1) دوافع التقارب بين المعسكرين.

2) الانعكاسات الايجابية لسياسة الانفراج الدولي على العلاقات الدولية.

الجغرافيا:

الجزء الأول: (6 نقاط)

1- "...إن الدول الغنية منذ زمن قديم وهي تمارس عملية نهب ثروات العالم الثالث تدريجيا لتزداد هي غنى وتزداد الاخرى فقرا ويظهر ذلك من خلال انعدام الانسجام والعدل في العلاقات بين **الدول النامية** والدول المتطورة مما يؤدي إلى اللامساواة، ويقر بعض الخبراء الاقتصاديين أن سيطرة العالم المتقدم على المبادلات التجارية العالمية للبضائع **ورؤوس الأموال** بالإضافة إلى التركّز الجغرافي للتحديث التكنولوجي وللممارسات الاحتكارية **للشركات متعددة الجنسيات** التي تعمل على إبقاء الدول النامية في حالة التخلف..." المرجع: محمد بجاوي، من أجل نظام اقتصادي دولي جديد ص 24.

المطلوب: اشرح ما تحته خط في النص.

2) إليك جدولا يمثل نسب البطالة لبعض الدول سنة 2017:

الدولة	ألمانيا	الو.م.أ	اليابان	أستراليا	أفغانستان	الأردن	بوتسوانا
معدل البطالة %	4.2	4.9	3.0	5.5	8.6	13.4	18.6

المصدر: كتيب الاحصاءات العالمية طبعة عام 2017 –الأمم المتحدة نيويورك-

المطلوب: علق على معطيات الجدول.

الجزء الثاني: (4 نقاط)

إن ما تحقق في شرق وجنوب شرق آسيا من نهضة اقتصادية، لا يعود إلى وفرة الموارد الطبيعية بل يعود بالأساس إلى العنصر البشري، الذي كان عاملا حاسما في تطور المنطقة رغم الصعوبات المطروحة.

المطلوب: انطلاقا من الفقرة واعتمادا على ما درست، اكتب مقالا جغرافيا تبرز فيه:

1) مواصفات العنصر البشري في منطقة شرق وجنوب شرق آسيا.

2) الصعوبات التي تواجه اقتصاد المنطقة.

الإجابة النموذجية:

التاريخ:

الجزء الأول: (6 نقاط)

1-مفهوم المصطلحات:

- **جبهة التحرير الوطني:** تنظيم سياسي ثوري (الجناح السياسي للثورة) ظهر في 01 نوفمبر 1954، وتعتبر الممثل الشرعي والوحيد للشعب الجزائري، تهدف إلى تحرير الجزائر من الاستعمار.
- **المفاوضات:** صيغة ديبلوماسية بين الطرفين الجزائري والاستعمار الفرنسي لإيجاد حلول دبلوماسية للقضية الجزائرية، وقد التقى الطرفان في عدة لقاءات كان أهمها مفاوضات ايفيان التي أفضت إلى استقلال الجزائر.
- **بيان أول نوفمبر:** أول وثيقة رسمية للثورة، أصدرتها جبهة التحرير الوطني يوم 01 نوفمبر 1954، تضمنت شرح أسباب ووسائل وأهداف الكفاح المسلح.

2-التعريف بالشخصيات:

- **كريم بلقاسم:** مناضل جزائري عضو مجموعة 22، أحد مفجري الثورة التحررية، تولى قيادة الولاية الثالثة، شارك في مؤتمر الصومام، رئيس الوفد الجزائري في اتفاقيات ايفيان.
- **جورج مارشال:** جنرال ثم وزير خارجية الولايات المتحدة اقترن اسمه بمشروع اقتصادي لإعادة إعمار أوروبا بعد ح ع 2 –مشروع مارشال جوان 1947 ويعتبر رمز من رموز الحرب الباردة.
- **هوشي منه:** سياسي فيتنامي، قائد الحركة التحررية في الهند الصينية ضد الاستعمار الفرنسي والأمريكي، مؤسس الحزب الشيوعي الفيتنامي 1931، أسس جمهورية فيتنام الشمالية بعد الاستقلال.

الجزء الثاني:

المقدمة: العلاقات الدولية بين تصاعد التوتر وضرورة التعايش بين المذهبين الرأسمالي والاشتراكي.

العرض: 1- دوافع التقارب بين المعسكرين:

- توازن الرعب النووي واستحالة الحسم العسكري.
- ارتفاع النفقات العسكرية وارهاق ميزانيات الدول المتصارعة.
- الخسائر البشرية (الحرب الكورية).
- تدهور العلاقات الدولية نتيجة الأزمات الدولية المتكررة.
- جهود المنظمات الدولية والإقليمية (هيئة الأمم المتحدة –حركة عدم الانحياز..).
- غزو الفضاء وتنامي الاهتمامات الاقتصادية.

2- الانعكاسات الايجابية لسياسة الانفراج الدولي على العلاقات الدولية:

- تراجع حدة التوتر في العلاقات الدولية وتقارب وجهات النظر بين المعسكرين.

- استبعاد مواجهة نووية شاملة ومدمرة.
- صرف النظر عن الاهتمامات العسكرية (تراجع التسابق نحو التسلح).
- التوجه نحو التنمية الاقتصادية والاجتماعية.
- بروز دور حركة عدم الانحياز كقوة مؤثرة في العلاقات الدولية.

الخاتمة: التقارب والتعايش بين المعسكرين ضرورة ملحة لتجنب مواجهة نووية عواقبها وخيمة على العالم.

الجغرافيا:

الجزء الاول:

1-شرح المصطلحات:

الدول النامية: مجموعة الدول التي حصلت على استقلالها حديثا والتي انتهجت سياسة تنموية للخروج من دائرة التخلف، تعرف بالدول السائرة في طريق النمو أو دول العالم الثالث.

رؤوس الاموال: جميع الوسائل المادية الضرورية لأي نشاط اقتصادي، أو ممتلكات الأفراد أو الدولة وهي الموارد التي تستهدف زيادة المردود الاقتصادي وتحقيق الربح المالي.

الشركات متعددة الجنسيات: وهي شركات عابرة للقارات تخضع ملكيتها لجنسيات متعددة وتمارس نشاطها في بلاد أجنبية، تتمتع بقدر كبير من حرية نقل الموارد وتعد من العوامل الأساسية في ظهور العولمة.

2- التعليق على الجدول: جدول إحصائي اقتصادي يمثل نسب البطالة في بعض دول العالم عام 2017 مصدره كتيب الاحصاءات العالمية طبعة عام 2017.

- تباين نسب البطالة بين الدول الواردة في الجدول.
- ارتفاع نسب البطالة في دول العالم المتخلف (افغانستان –الأردن-بوتسوانا).
- انخفاض نسب البطالة في دول العالم المتقدم (اليابان –ألمانيا –اليابان).
- ارتفاع نسبة البطالة في دولة بوتسوانا (18.6 %).
- انخفاض نسبة البطالة باليابان المرتبة الأولى (03 %).

الجزء الثاني: المقدمة: منطقة شرق وجنوب شرق آسيا بين محدودية الموارد والاستثمار في الفرد لكفاءته.

العرض: 1-مواصفات العنصر البشري في منطقة شرق وجنوب شرق آسيا:

- الوفرة (قوة ديمغرافية هائلة).
- التأهيل العالي وسرعة التكيف مع المستجدات التكنولوجية.
- منخفضة التكاليف (أجور أقل بـ 9 مرات من العامل الأوروبي).
- المردودية العالية للفرد (ثلاثة إضعاف الفرد الأوروبي).
- الروح المهنية العالية وقلة الاضرابات والاحتجاجات.

2-الصعوبات التي تواجه اقتصاد المنطقة:

- نقص الموارد الطاقوية لبعض الدول كاليابان.
- المنافسة الخارجية خاصة مع الاتحاد الاوروبي والولايات المتحدة الامريكية.
- ضيق السوق في العالم الثالث وظهور صناعات وطنية به.
- تراجع الاستثمارات بسبب الركود الاقتصادي العالمي.
- تزايد اجراءات الحماية الجمركية في الدول المتقدمة مما حرمها من الأسواق.

الخاتمة: دول شرق وجنوب شرق آسيا حققت وثبة اقتصادية يقف وراءها الفرد الآسيوي.

6ـ موضوع مقترح رقم : 06 ـ مستخرج من كتاب السلسلة الخضراء

التاريخ:

الجزء الأول: (6 نقاط)

"... لدى انعقاد دورة الأمم المتحدة في أفريل 1960 رفض **ايزنهاور** استقبال **كاسترو**، وبدا بعد ذلك أن الأمور قد تجاوزت حدا يستحيل العودة عنه.. وهكذا انقضت هذه الحرب الباردة دون صدام واعتبرها الطرفان نصرا له.. كيندي لأنه أزال تهديدا بالصواريخ النووية لبلاده، **وخروتشوف** لأنه جعل الأمريكيين يفقهون معنى أن تكون بلادهم مهددة ..."

المصدر: لبيب عبد الستار، أحداث القرن 20 م، ص 193-194.محمد العربي ولد حليفة

المطلوب: 1) عرف الشخصيات التي تحتها خط.

2) على خريطة العالم المرفقة، وقع ثلاث حركات تحررية (واحدة من كل قارة)

⇦ الجزء الثاني: (4 نقاط)

لقد حققت الثورة التحريرية انتصارات عظمى على المستويين الداخلي والخارجي، مكنت الجزائر من الاستقلال واعادة بناء الدولة الجزائرية، على أسس برنامج طرابلس (جوان 1962 م).

المطلوب: انطلاقا من الفقرة واعتمادا على ما درست، اكتب مقالا تاريخيا تبرز فيه:

1) الظروف السياسية والاقتصادية لقيام الدولة الجزائرية.

2) الاختيارات السياسية والاقتصادية على ضوء ما جاء في برنامج طرابلس.

الجغرافيا:

الجزء الأول: (6 نقاط)

"...**الاستثمار** هو واحد من أهم العوامل في تعزيز واستدامة النمو الاقتصادي، خاصة في **البلدان النامية** حيث يضمن التحسين المستمر والتوسع في النطاقات الانتاجية لتحقيق **النمو الاقتصادي** في المستقبل وتنمية البلدان ..."

المصدر: الأبحاث الاقتصادية والاجتماعية والتدريب للدول الاسلامية (مركز أنقرة) التقرير الاقتصادي السنوي 2012 ص 20.

المطلوب: اشرح ما تحته خط في النص.

1) إليك جدولا يمثل الدخل الفردي في بعض دول العالم سنة 2017: (الوحدة: دولار أمريكي)

الدولة	إريتريا	أفغانستان	الجزائر	ألمانيا	إسبانيا	الو.م. أ
الدخل الفردي	914.9	623.2	4154.1	41686.2	25865.4	56053.8

المصدر: كتيب الاحصاءات العالمية طبعة 2017-الامم المتحدة نيويورك-

- علق على معطيات الجدول.

⇦ الجزء الثاني: (4 نقاط)

توجهت أوروبا بعد الحرب العالمية الثانية إلى اتباع سياسة التكتل والاندماج وإعادة ترتيب البيت الأوروبي قصد استعادة وزنها السياسي والاقتصادي ومكانتها التي فقدتها.

المطلوب: انطلاقا من الفقرة واعتمادا على ما درست، اكتب مقالا جغرافيا تبرز فيه:

1) أهداف التكتل الأوروبي.

2)الصعوبات الاقتصادية التي تواجه الاتحاد الأوروبي.

الإجابة النموذجية:

التاريخ:

⇦ **الجزء الأول:**

1-التعريف بالشخصيات:

- ايزنهاور: سياسي وعسكري أمريكي، قائد الحلف الأطلسي سنة 1949، رئيس الولايات المتحدة الأمريكية 1953-1961، أنهى الحرب الكورية 1953، صاحب المشروع الذي يحمل اسمه.
- فيدال كاسترو: زعيم ثوري كوبي أطاح بنظام باتيستا، أصبح رئيسا لكوبا سنة 1959 واجه الهيمنة الأمريكية بكوبا وشهدت فترته أزمة الصواريخ 1963 تخلى عن السلطة لأسباب صحية.
- خروتشوف: رجل سياسي سوفياتي خلف ستالين، صاحب مبادرة التعايش السلمي، أول زعيم سوفياتي يزور اللوم. أ رسميا حدثت في عهده عدة أزمات أخطرها أزمة الصواريخ في كوبا 1962 أحد قيادة الترويكا.

2-التوقيع على الخريطة: -الإنجاز. -المفتاح والعنوان.

⇦ **الجزء الثاني:**

المقدمة: الجزائر المستقلة بين الظروف المورثة عن الاستعمار والتطلعات لبناء الدولة المستقلة من خلال ميثاق طرابلس.

العرض: -ظروف قيام الدولة الجزائرية من الناحية السياسية والاقتصادية:

أ-سياسيا:

- توقيع اتفاقية ايفيان ووقف إطلاق النار.
- انعقاد مؤتمر طرابلس جوان 1962.
- اجراء الاستفتاء حول تقرير المصير وعلان الاستقلال.
- النشاط الارهابي لمنظمة الجيش السري (OAS).

ب- اقتصاديا:

- تبعية الاقتصاد الجزائري للاقتصاد الفرنسي (80 % من المبادلات مع فرنسا).
- الزراعة ذات الطابع التجاري (النقدية).
- الصناعة ذات الطابع الاستخراجية.

-الاختيارات السياسية والاقتصادية على ضوء ما جاء برنامج طرابلس:

أ-السياسية:

- تشييد دولة عصريّة، على أسس ديمقراطيّة في إطار نظام الحزب الواحد.
- محاربة الاستعمار والامبريالية، ودعم حركات التحرر في العالم.
- العمل على تجسيد الوحدة المغاربية والعربية والإفريقية.
- الدعم الفعال للسلم والتعاون الدولي.

ب- الاقتصادية:

- تبني النّظام الاشتراكي كوسيلة للتنمية الوطنية الشّاملة.
- محاربة الاحتكارات الإقطاعية.
- مراجعة العلاقات الاقتصادية الجزائرية مع الخارج، على أساس التعاون العادل.

الخاتمة: مثل مؤتمر طرابلس بقراراته تحديا للظروف الموروثة ومنطلق نحو البناء والتشييد.

الجغرافيا:

⇦ الجزء الأول: 1-شرح المصطلحات:

- الاستثمار: هو توظيف أو تشغيل رؤوس الاموال في مشاريع تنموية اقتصادية او اجتماعية معينة للإسهام في التنمية الوطنية لرفع الدخل القومي وإتاحة فرص العمل.

- النمو الاقتصادي: هو التقدم والتطور الذي تشهده مختلف القطاعات الاقتصادية لدولة ما يزداد ويتضاعف مع زيادة كفاءة الاداء وتوسع الاستثمارات.

- الدول النامية: مجموعة الدول التي حصلت على استقلالها حديثا والتي انتهجت سياسة تنموية للخروج من دائرة التخلف، تعرف بالدول السائرة في طريق النمو أو دول العالم الثالث.

2-التعليق على الجدول: جدول إحصائي اقتصادي يمثل معدل الدخل الفردي في بعض دول العالم عام 2017 مصدره كتيب الاحصاءات العالمية طبعة عام 2017.

- تباين الدخل الفردي بين الدول الواردة في الجدول.
- ارتفاع معدل الدخل الفردي بدول العالم المتقدم (ألمانيا – إسبانيا – الو.م. أ).
- تدني مستوى معدل الدخل الفردي بدول العالم المتخلف (إريتريا-أفغانستان – الجزائر).
- ارتفاع الدخل الفردي بالولايات. م.أ (المرتبة 1).
- تدني مستوى الدخل الفردي في أفغانستان.

⇦ الجزء الثاني:

المقدمة: سياسة التكتل في الاتحاد الاوروبي بين الاهداف المرجوة والصعوبات التي تواجهه.

العرض: **1-أهداف التكتل الاوروبي:**

أ-السياسية:

- استرجاع مكانة اوروبا (وزنها السياسي).

-تجاوز الخلافات السياسية وتوحيد مواقفها السياسية عالميا.

-مواجهة الهيمنة والوصاية الامريكية بعد الحرب ع 2.

ب-الاقتصادية:

- استرجاع مكانة أوروبا الاقتصادية التي فقدتها بعد الحرب العالمية 2.

-تحقيق تكامل اقتصادي بين الدول الاعضاء.

-إقامة سوق أوروبية مشتركة والغاء الحواجز الجمركية.

-تحقيق التقدم الاقتصادي والرفاه الاجتماعي وبناء أوروبا الخضراء.

2-الصعوبات التي تواجه الاتحاد الاوروبي:

التفاوت الاقتصادي بين الدول الأعضاء.

-التبعية في مجال الموارد الطبيعية للعالم الثالث.

-المنافسة الخارجية (الولايات. م.أ – اليابان – الصين).

-عدم انضمام كل دوله لمنطقة اليورو.

-الأزمات المالية والاقتصادية الدورية (اليونان – اسبانيا).

-عدم احترام مبدأ الأفضلية.

الخاتمة: رغم النجاحات التي حققها الاتحاد الاوروبي إلا أنه تواجهه صعوبات قد تهدد مستقبل التكتل.

7ـ موضوع مقترح رقم : 07ـ مستخرج من كتاب السلسلة الخضراء

التاريخ:

⇦ الجزء الأول: (6 نقاط)

"... لقد بينت **مواثيق الثورة** السبل السياسية التي يجب انتهاجها، إذ يجب تكثيف **العمل المسلح** الذي يرهق كاهل فرنسا والذي لا يوصد الباب أمام مسعى المفاوضات بين جبهة التحرير الوطني وفرنسا البلد المغتصب للجزائر وأن يكون ذلك على أساس واحد هو استرجاع **السيادة الوطنية** ..."

المصدر: منشورات المركز الوطني للدراسات والبحث في الحركة الوطنية وثورة 1 نوفمبر 1954، كتاب مرجعي عن الثورة التحريرية 1954 -1962 ص 231

المطلوب:

1- اشرح ما تحته خط في النص.

2- عرف بالشخصيات التالية: - ميخائيل غورباتشوف - بن يوسف بن خدة - الجنرال جياب.

⇦ الجزء الثاني: (4 نقاط)

إن الصراع بين الشرق والغرب كان متباينا في شدته بحسب تأثير كل مرحلة من مراحله، فكل طرف حمل الطرف الآخر مسؤولية اشتعال الحرب الباردة والتي أثرت سلبا على المستعمرات.

المطلوب: انطلاقا من الفقرة واعتمادا على ما درست، اكتب مقالا تاريخيا تبرز فيه:

1) أسباب الصراع بين الشرق والغرب.

2) الأثر السلبي للصراع على المستعمرات.

الجغرافيا:

⇦ الجزء الأول: (6 نقاط)

"...لقد اصبحت المنظمات غير الحكومية تمثل عناصر أساسية في العلاقات الدولية منذ نهاية الحرب الباردة بعد أن شدت الاهتمام إليها خلال قمة منظمة الأمم المتحدة حول **التنمية المستدامة** بجوهانسبورغ سنة 2002، ولعبت دورا لا يستهان به في اندلاع ثورة **بلدان الجنوب** التي أفضت إلى إفشال مؤتمر **المنظمة العالمية للتجارة** في سبتمبر 2003..." المصدر: موريس دورويسي، عولمة الاقتصاد 2005 ص 2014-2015

المطلوب: اشرح ما تحته خط في النص.

2- إليك جدولا يمثل الدول الخمس الأولى المنتجة للقمح في العالم عام 2017:

الدولة	الصين	الهند	روسيا	اللوم. أ	فرنسا
الكمية م/طن	134.3	98.5	85.8	47.3	36.9

المصدر: الموقع الرسمي لمنظمة الأغذية والزراعة للأمم المتحدة www.fao.org

المطلوب: مثل أرقام الجدول بواسطة أعمدة بيانية وفق مقياس الرسم: 1سم = 20 مليون طن 1 سم = عمود

الجزء الثاني: (4 نقاط)

لقد كان لتطور تكنولوجيا الاعلام والاتصال الأثر البالغ على تطور قطاع المبادلات التجارية.

المطلوب: انطلاقا من الفقرة واعتمادا على ما درست، اكتب مقالا جغرافيا تبرز فيه:

1-واقع المبادلات التجارية العالمية.

2-دور الاعلام وتكنولوجيا الاتصال في تطور المبادلات التجارية.

الإجابة النموذجية:

التاريخ:

⇦ الجزء الأول:

1-مفهوم المصطلحات:

مواثيق الثورة: هي مجموعة القرارات المتفق عليها والتي تأخذ صفة المبادئ والأسس والاستراتيجية من بداية الثورة إلى نهايتها مثل بيان 1 نوفمبر – ميثاق الصومام 1956 – ميثاق طرابلس 1962.

العمل المسلح: هو مجموع العمليات العسكرية والفدائية التي قام بها الثوار الجزائريون داخل وخارج الجزائر مابين 1954 -1962 والتي انتهت باسترجاع السيادة الوطنية.

السيادة الوطنية: هي السلطة الفعلية للدولة على اقليمها وما فيه من سكان وموارد، والحرية في المواقف والإختيارات.

2- التعريف بالشخصيات:

-ميخائيل غورباتشوف: آخر زعيم للاتحاد السوفياتي 1985-1991 يعرف بمهندس الاصلاحات (البروسترويكا والغلاسنوست) كان وراء إنهاء صراع الحرب الباردة مع المعسكر الرأسمالي سنة 1989، حضر مؤتمر باريس ومالطا مع بوش.

- بن يوسف بن خدة: عضو بحزب الشعب، قيادي في حركة انتصار الحريات الديمقراطية، أمين عام اللجنة المركزية ورئيس الحكومة المؤقتة 1960 -1962، أعلن عن وقف إطلاق النار، أحد الشخصيات البارزة في مؤتمر طرابلس 1962.

- الجنرال جياب: عسكري فيتنامي، قائد القوات الفيتنامية في معركة ديان بيان فو ضد القوات الفرنسية 1954 قاوم بعدها الإحتلال الأمريكي بالمنطقة 1964-1973.

⇦ الجزء الثاني:

المقدمة: الصراع الايديولوجي بين المعسكرين الشرقي والغربي بين الاسباب والانعكاسات.

العرض:

1- اسباب الصراع بين الشرق والغرب:

- زوال مبررات التحالف بين النظامين الرأسمالي والإشتراكي بعد الحرب العالمية 2.
- السباق نحو التسلح وإكتشاف الأسلحة النووية.
- الإختلاف الإيديولوجي بين المذهبين الرأسمالي والإشتراكي.
- القيادة المتشددة للقوتين الولايات والسوفيات (هاري ترومان –ستالين).
- الصراع حول مناطق النفوذ وإختلاف وتصادم المصالح بين القوتين.
- دعم السوفيات للأنظمة الشيوعية وهيمنة الجيش الأحمر السوفياتي على أوروبا الشرقية.

2- الأثر السلبي للصراع على المستعمرات:

- تحول المستعمرات إلى مناطق صراع بين العملاقين في إطار صراع الحرب الباردة (الهند الصينية –كوبا –مصر ...).
- ربط المستعمرات بالاحلاف والقواعد العسكرية (حلف جنوب شرق آسيا 1954- حلف بغداد 1955).
- انتهاج الو.م.أ سياسة ملء الفراغ في المستعمرات (الهند الصينية –مشروع ايزنهاور 1957).
- انقسام بعض الدول الضعيفة كنتيجة للصراع بين الطرفين (الفيتنام – الكوريتين).
- الخاتمة: إذا كان تصادم المصالح بين المعسكرين هدد السلم العالمي فإن أثاره كانت أخطر على شعوب المستعمرات.

الجغرافيا:

⇦ الجزء الاول:

1-شرح المصطلحات:

*التنمية المستدامة: هي الاستغلال الأمثل للموارد الطبيعية والبشرية المتاحة بشكل متوازن اقتصادياً واجتماعياً بما يضمن تلبية حاجيات الأجيال الحالية والأجيال المقبلة بصورة مستمرة مع الحفاظ على البيئة من التلوث والتخريب.

*دول الجنوب: يقصد بها مجموعة الدول المتخلفة الواقعة في النصف الجنوبي للكرة الأرضية (آسيا -افريقيا -أمريكا اللاتنية) التي تعاني التخلف في مختلف المجالات.

*منظمة التجارة العالمية: منظمة دولية انشئت سنة 1995 خلفا لمنظمة – الغات – تعمل على وضع القواعد والقوانين التي تنظم التجارة العالمية ومن أهدافها فض النزاعات التجارية الدولية والعمل على إلغاء الحواجز الجمركية بين الدول.

2- التمثيل بأعمدة بيانية: الإنجاز. العنوان والمفتاح.

⇦ الجزء الثاني:

المقدمة: المبادلات العالمية بين الواقع والآفاق المستقبلية.

العرض:

1-واقع المبادلات التجارية العالمية:

- ارتفاع حجم المبادلات العالمية من سنة لأخرى.
- سيطرة العالم المتقدم على 80 % من قيمة المبادلات العالمية.
- تدني قيمة العالم المتخلف 20 % من قيمة المبادلات العالمية .
- تحكم العالم المتقدم في المؤسسات المالية والاقتصادية (البورصات -العملات -المنظمات) .
- تخصص العالم المتقدم في تجارة المواد الصناعية والغذائية .
- تخصص العالم الثالث في تصدير المواد الأولية .

2- دور تكنولوجيا الاعلام والاتصال في المبادلات التجارية العالمية :

- تزايد هيمنتها على الأسواق التجارية .
- إسهام وسائل الإعلام في تغير العادات الاستهلاكية لكثير من الشعوب إلى أنواع و ماركات محددة تقف من ورائها الشركات العملاقة.
- الانتشار الأوسع للغات وثقافات تلك الدول و بالتالي تزايد الطلب على بضائعها.
- العمل على توحيد الأسواق بتوحيد القيم الثقافية و الاستهلاكية عبر ما يعرف بالعمولة.
- تهميش دور دول العالم المتخلف في حركية الاقتصاد العالمي وزيادة حدة الركود فيها مما يهدد استقرارها.
- الإنتشار الأوسع للأسواق الإلكترونية والدفع الإلكتروني .

الخاتمة: القطاع التجاري شهد تطورا لافتا، لكن استفادة العالم الثالث تبقى محدودة نظرا للهيمنة المطلقة للعالم المتقدم على القطاع التجاري.

8ـ موضوع مقترح رقم : 08 ـ مستخرج من كتاب السلسلة الخضراء

التاريخ:

⇦ **الجزء الأول: (6 نقاط)**

"... رفضت **الحكومة المؤقتة للجمهورية الجزائرية** خلال المناقشات الفصل بين **وقف إطلاق النار** وضمانات **تقرير المصير**، وقالت إنها لا تريد تكرار ما حدث في لقاء مولان، ورفضت الهدنة التي ما هي إلا وقف للعمليات العسكرية بين الطرفين ... كما رفضت فكرة التيارات التي هي وسيلة لتفرقة الصفوف، وترفض بطبيعة الحال تجزئة التراب الوطني ..." المرجع: بن يوسف بن خدة، اتفاقيات ايفيان ص 21.

المطلوب: اشرح ما تحته خط في النص.

2)أكمل الجدول التالي:

الحدث	تاريخه
أحداث ساقية سيدي يوسف	.....
.....	29 أكتوبر 1956
قمة باريس للأمن والتعاون	.....

⇦ **الجزء الثاني: (4 نقاط)**

"... إن إحداث المغرب وتونس لها دلالتها في هذا الصدد فهي تمثل بعمق مراحل الكفاح التحرري في شمال افريقيا، ومما يلاحظ في هذا الميدان أننا كنا منذ مدة طويلة أول الداعين إلى الوحدة في العمل، هذه المرحلة التي لم يتح لها مع الأسف التحقيق أبدا بين الأقطار الثلاثة.. " مقتطف من بيان 1 نوفمبر 1954

المطلوب: انطلاقا من الفقرة واعتمادا على ما درست، اكتب مقالا تاريخيا تبرز فيه:

1) مظاهر التضامن المغاربي أثناء فترة الكفاح المسلح.

2) رد فعل فرنسا على هذا التضامن.

الجغرافيا:

⇦ **الجزء الأول: (6 نقاط)**

"...يخضع مسار **العولمة** إلى منطق متعدد الجوانب، من تشابك مبادلات من أنواع مختلفة، ومنافسة متزايدة بين **الشركات متعددة الجنسيات** والبحث عن الأسعار المنخفضة بالنسبة للمنتجات وفتح الحدود، يلعب تراجع دور الدول في كل ذلك أهمية خاصة.. أما العناصر الفاعلة في العولمة هي – القوى السياسية والاقتصادية الكبرى في العالم – الشركات متعددة الجنسيات –المنظمات الدولية– **المنظمات غير الحكومية...**"

المطلوب: اشرح ما تحته خط في النص.

2) إليك جدولا يمثل مناطق التبادل التجاري للجزائر سنة 2017:

المنطقة	الصادرات %	الواردات %
الاتحاد الاوروبي	57.9	44.1
الدول الاوروبية الاخرى	5.5	9.3
امريكا الشمالية	11.8	5.3
امريكا اللاتينية	7.2	7.2
آسيا	10.9	27.9

المغرب	3.6	1.3
الدول العربية	2.2	3.3
افريقيا	0.3	0.4
باقي العالم	0.5	1.3

المصدر: الديوان الوطني للإحصائيات –الجزائر بالأرقام- نشرة 2018 ص 52.

المطلوب: مثل معطيات الجدول بدائرتين نسبيتين: **نق=3سم.**

⇦ الجزء الثاني: (4 نقاط)

"تحتل الولايات المتحدة الأمريكية الصدارة العالمية، وقد تخطت مرحلة القوة العظمى في القرن 20 م إلى أكثر من ذلك، فالهيمنة الأمريكية امتدت الى كافة النواحي الاقتصادية والمالية والعسكرية.."

المطلوب: انطلاقا من الفقرة واعتمادا على ما درست، اكتب مقالا جغرافيا تبرز فيه:

1) العوامل البشرية والمادية للقوة الاقتصادية الأمريكية.

2) أثر القوة الاقتصادية الأمريكية على الاقتصاد العالمي.

الإجابة النموذجية:

التاريخ:

⇦ الجزء الأول:

1-مفهوم المصطلحات:

الحكومة الجزائرية المؤقتة: أسست بالقاهرة 19 سبتمبر 1958 برئاسة فرحات عباس كممثل للشعب الجزائري وثورته بالمشاركة في المؤتمرات وتمثيل الثورة والتفاوض مع الاستعمار.

وقف إطلاق النار: وقف العمليات العسكرية بين قوات جيش التحرير الوطني وقوات الاستعمار الفرنسي، من أهم مكتسبات اتفاقيات ايفيان الموقعة في 18 مارس 1962.

تقرير المصير: مصطلح يراد به تحديد مستقبل الشعب الجزائري بمنحه فرصة تحديد مستقبله بيده دون إكراه أو تزوير.

2- تكملة جدول الاحداث:

الحدث	تاريخه
أحداث ساقية سيدي يوسف	08 فيفري 1958
العدوان الثلاثي على مصر	29 أكتوبر 1956
قمة باريس للأمن والتعاون	19 نوفمبر 1990

⇦ الجزء الثاني:

المقدمة: نضال موحد بين دول المغرب العربي ضد عدو مشترك (الاستعمار الفرنسي).

العرض:

1-مظاهر التضامن المغاربي أثناء فترة الكفاح المسلح:

- هجوم 20 أوت 1955 تضامنا مع الشعب المغربي.
- الدعم المادي والمعنوي (الأسلحة –المؤونة –دعم القضية الجزائرية في المحافل الدولية).

- استقبال اللاجئين والمهجّرين.
- مؤتمر طنجة للاحزاب الممثلة للبلدان الثلاثة 1958 ودعم الثورة الجزائرية.
- القواعد الخلفية للثورة الجزائرية في كل من تونس والمغرب.

2- رد الفعل الفرنسي تجاه هذا التضامن:

- إقامة الخطوط المكهربة (شال وموريس) على الحدود لمنع الدعم وتمرير الأسلحة.
- تطبيق قانون حق المتابعة في الخارج ضد الجزائريين.
- مجازر ساقية سيدي يوسف بتونس 1958.
- اختطاف قادة الوفد الخارجي (القرصنة الجوية) أكتوبر 1956.
- إثارة الخلافات بين شعوب المنطقة خاصة حول الحدود.
- منح الاستقلال لتونس والمغرب للاحتفاظ بالجزائر.

الخاتمة: تضامن شعوب المغرب العربي أنهى أسطورة الاستعمار الفرنسي بالمنطقة.

الجغرافيا:

⇦ الجزء الأول:

⇦ 1-شرح المصطلحات:

العولمة: تعني إزالة الحواجز والمسافات بين الشعوب وبين الأوطان والثقافات، ويعرفها البعض بأنها تحويل العالم إلى قرية كونية، كما تعني فرض الهيمنة السياسية والاقتصادية والثقافية والاجتماعية من طرف و.م.أ بتعميم النمط الأمريكي على العالم.

الشركات متعددة الجنسيات: مؤسسات اقتصادية عالمية عابرة للقارت ذات أنشطة مختلفة وذات قدرة كبيرة على التحكم في فروعها المنتشرة في دول العالم وبلورة نشاطها الاقتصادي، تتحكم في الإقتصاد العالمي.

المنظمات غير الحكومية: هي منظمات أو جمعيات عالمية خيرية غير تجارية تعرف بالمجتمع المدني تنشط في كافة الميادين كالبيئة والصحة وحقوق الانسان والإغاثة لكن لديها أعمال خفية لصالح القوى العظمى.

-2التمثيل : (دائرتين نسبيتين).

-الانجاز.

-العنوان.

-المفتاح.

⇦ الجزء الثاني:

المقدمة: تتوفر الولايات المتحدة الامريكية على إمكانات مادية وبشرية هائلة أهلتها لاكتساب قوة اقتصادية ومن ثم الهيمنة على الاقتصاد العالمي.

العرض:

1-العوامل البشرية والمادية للقوة الاقتصادية الامريكية:

أ-البشرية:

- قوة بشرية هائلة حوالي 330 مليون نسمة ذات الخبرة والكفاءة.
- ارتفاع نسبة الفئة النشطة (مجتمع حيوي).
- دور المهاجرين في الابتكار والإبداع والاختراع.

ب-المادية:

- ضخامة رؤوس الاموال.
- تتمركز بها أكبر البورصات والمؤسسات المالية والاقتصادية العالمية (وولت ستريت – صندوق النقد الدولي...).
- حيوية شركاتها متعددة الجنسيات في الخارج والداخل.
- التحكم في التكنولوجيا الحديثة واستغلالها في مختلف المجالات.
- ضخامة وتنوع وحداثة هياكلها القاعدية (المطارات – الموانئ ...).

2- أثر القوة الاقتصادية الامريكية في الاقتصاد العالمي:

- تفوق الدولار كعملة عالمية؛ إذ يعد العملة المرجعية في الأسواق المالية العالمية.
- ضخامة الواردات الامريكية يمنحها ورقة ضغط وتأثير إذ لو أغلقت أمريكا أسواقها الداخلية لأفلست الكثير من الشركات في اليابان والاتحاد الاوروبي.
- سيطرة شركاتها متعددة الجنسيات على الاقتصاد العالمي.
- تفوقها في تسيير والسيطرة على المؤسسات المالية والاقتصادية (البورصات – المنظمات...).
- تأثر الاقتصاد العالمي بالأزمات المالية والاقتصادية الامريكية.
- استخدام ضخامة الانتاج الزراعي كورقة ضغط على الشعوب الضعيفة.

الخاتمة: قوة الاقتصاد الامريكي وانعكاساته على واقع العلاقات الاقتصادية العالمية.

عكاشة BOOKSTORE
We can help you
يمكننا أن نساعدك

9ـ موضوع مقترح رقم : 09 ـ مستخرج من كتاب السلسلة الخضراء

التاريخ:

⇦ الجزء الأول: (06 نقاط)

"... فقد أدى **مبدأ ترومان** إلى توضيح **سياسة الاحتواء** وإلى الاعتراف بالحرب الباردة كوضع من أوضاع العلاقات، وقام ايزنهاور بتمديد تلك السياسة مع تأكيد على الرد الشامل، واعترفت الاستراتيجية الاندفاعية لدى كينيدي جونسون **بالتوازن النووي** بين الولايات المتحدة الامريكية والاتحاد السوفياتي..."

المرجع الكتاب المدرسي السنة الثالثة ثانوي ص 21.

المطلوب: اشرح ما تحته خط في النص.

2) أكمل جدول الأحداث الآتي:

الحدث	تاريخه
.....	23 جويلية 1952
توقيع اتفاقية ايفيان	.....
.....	22 سبتمبر 1947

⇦ الجزء الثاني: (4 نقاط)

يعتبر مشروع مارشال من أضخم المشاريع التي وظفت في إطار صراع الحرب الباردة من أجل تقوية النفوذ الامريكي وتقويض النفوذ السوفياتي في اوروبا.

المطلوب: انطلاقا من الفقرة واعتمادا على ما درست، اكتب مقالا تاريخيا تبرز فيه:

1) الأهداف الحقيقية لمشروع مارشال.

2) انعكاساته على العلاقات الدولية.

الجغرافيا:

⇦ الجزء الأول: (6 نقاط)

"...يعتبر **الاتحاد الاوروبي** عنصرا فاعلا أساسيا في العولمة وقد ينسج علاقات وطيدة مع **دول الجنوب** وهو من أول المساعدين على **التنمية** بتلك الدول ..." المرجع: الكتاب المدرسي، السنة الثالثة ثانوي ص 106

المطلوب: اشرح ما تحته خط في النص.

2) إليك جدولا يمثل تطور أسعار برميل النفط الخام (سلة الاوبيك) بالدولار.

السنة	2006	2007	2008	2009	2010	2011	2012	2013	2014	2015
السعر بالدولار	61.1	69.1	94.5	61.1	77.5	107.5	109.5	105.9	96.3	49.5

المصدر: مجلة النفط والتعاون العربي، المجلد 42، 2015/ العدد 156 ص 65.

المطلوب: مثل الجدول بمنحنى بياني بمقياس رسم: (1سم = 20 دولار ؛1 سم = 01 سنة.)

الجزء الثاني: (4 نقاط)

تتضح قوة اقتصاد الولايات المتحدة الأمريكية من خلال ارتفاع نسبة مساهمتها في المبادلات العالمية تصديرا واستيرادا، رغم وجود بعض المعيقات.

المطلوب: بالاعتماد على ما سبق ومكتسباتك، اكتب مقالا جغرافيا تبين فيه:

1-أسباب ضخامة الصادرات والواردات الأمريكية.

2-التحديات التي تواجه التجارة الخارجية في الولايات المتحدة الأمريكية.

الإجابة النموذجية:

التاريخ:

⇦ الجزء الاول:

1-مفهوم المصطلحات:

مبدأ ترومان: مشروع جاء به الرئيس الأمريكي ترومان 1947 تضمن مجموعة من المساعدات العسكرية والاقتصادية لكل من تركيا واليونان بهدف تحقيق التوغل الأمريكي في أوروبا ووضع حد للمد الشيوعي

سياسة الإحتواء: سياسة أمريكية تقوم على إنشاء سلسلة من الأحلاف والقواعد العسكرية بهدف تطويق السوفيات ومنع انتشار نفوذه وأفكاره إلى الدول المجاورة وسائر مناطق العالم.

التوازن النووي: يقصد به التكافؤ في ميزان القوة النووية بين العملاقين واستحالة تحقيق نصر عسكري واقتناع الطرفين بخطورة المواجهة.

2- تكملة جدول الأحداث:

الحدث	تاريخه
الثورة المصرية	23 جويلية 1952
توقيع اتفاقية ايفيان	18 مارس 1962
مبدأ جدانوف	22 سبتمبر 1947

⇦ الجزء الثاني:

المقدمة: المساعدات الاقتصادية وسيلة استراتيجية واداة للهيمنة والسيطرة وتحقيق النفوذ.

العرض: 1- الاهداف الحقيقية لمشروع مارشال:

- التصدي للمد الشيوعي في أوروبا.
- إنقاذ الانظمة الرأسمالية في أوروبا الغربية بعد تنامي المعارضة الشيوعية.
- إحكام الهيمنة الاقتصادية والسياسية على المنطقة.
- إضعاف الارتباط بين الاتحاد السوفياتي والديمقراطيات الشعبية.
- فتح المجال أمام الشركات والاستثمارات الأمريكية في أوروبا.

2- انعكاساته على العلاقات الدولية:

- زيادة حدة التوتر والصراع بين المعسكرين.
- تأسيس الاتحاد السوفياتي لمنظمة الكوميكون 1949 كرد فعل عن المشروع.
- تجدد الازمات الدولية (برلين 1948).
- اتساع الهوة بين دول أوروبا الشرقية والغربية.

الخاتمة: مشروع مارشال لم يكن إعمارا لأوروبا بقدر ما كان يهدف لتحقيق المصالح الأمريكية وتعزيز نفوذها.

الجغرافيا:

⇦ الجزء الاول:

1-شرح المصطلحات:

الإتحاد الأوروبي: تكتل إقتصادي سياسي ثقافي اجتماعي، تعود جذور تأسيسه لإتحاد دول البنلوكس، ظهر بموجب معاهدة روما 1957 ويبلغ تعداد دوله حاليا 28 دولة.

التنمية: حركة تطوير المجالات المختلفة، بإستغلال رؤوس الأموال والتجهيزات والإمكانات البشرية وهي متعددة

دول الجنوب: الدول الواقعة في الجزء الجنوبي للكرة الأرضية، تعرف بتخلفها الاقتصادي وانخفاض مستوى المعيشة، وهي تسعى للنهوض بواقعها وتحسين أوضاعها.

2- التمثيل البياني:

- الإنجاز (المنحنى).
- العنوان والمفتاح.

⇦ الجزء الثاني:

المقدمة: الولايات المتحدة الأمريكية قوة تجارية عالمية تساهم بـ 13 % من المبادلات العالمية.

العرض:

1-أسباب ضخامة الصادرات والواردات الأمريكية:

- وفرة وضخامة الانتاج الزراعي وتنوعه.
- ضخامة الانتاج الصناعي أكثر من 15 % من الانتاج الصناعي العالمي.
- حاجتها للموارد الطاقوية بسبب كثافة النشاط الصناعي.
- قوة استثماراتها في الداخل والخارج.
- اتساع السوق الاستهلاكية (330 مليون مستهلك).
- انفتاحها على الاسواق العالمية وتوفر البنيات المناسبة للتصدير والاستيراد.

2- التحديات التي تواجه التجارة الخارجية في الولايات المتحدة الأمريكية:

- الكساد والتضخم بسبب تشبع الأسواق أحيانا.
- المنافسة الخارجية (الاتحاد الاوروبي – اليابان – الصين...).
- ضيق السوق في العالم الثالث تدريجيا بسبب ارتفاع نسبة الاكتفاء.
- عدم استقرار أسعار المواد الأولية مما يؤثر على ميزانها التجاري (العجز).
- تزايد إجراءات الحماية الجمركية في بعض الدول مما يحرمها من الأسواق.
- ارتفاع عملتها وأسعار بعض منتوجاتها (تكاليف الإنتاج) يضعف قدرتها التنافسية في الأسواق.

الخاتمة: رغم التفوق التجاري للولايات المتحدة الامريكية إلا أن نشاطها التجاري يبقى تحت تأثير مشاكل اقتصادية متعددة.

10ـ موضوع مقترح رقم : 10 ـمستخرج من كتاب السلسلة الخضراء

التاريخ:

⇦ **الجزء الأول: (6 نقاط)**

"... مثلت **حركة التحرر** في الهند الصينية مظهرا من مظاهر انحصار وتصفية **الاستعمار التقليدي** وظهور الاستعمار الجديد المتجسد في القوى العظمى التي أفرزتها الحرب العالمية الثانية وعلى رأسها الولايات المتحدة الأمريكية، والتي اشتهرت **بسياسة ملء الفراغ** الايديولوجي في المنطقة عقب انسحاب فرنسا ..."

المصدر: تاريخ العالم المعاصر السنة الثالثة ثانوي ص 233.

المطلوب: اشرح ما تحته خط في النص.

2)أكمل الجدول التالي:

الحدث	تاريخه
.....	1956-10-22
.....	20 مارس 1970
توقيع اتفاقية سالت الأولى	.....

⇦ **الجزء الثاني: (4 نقاط)**

لقد كانت الظروف ملائمة لنضج العمل المسلح في الجزائر، فعلى الصعيد الداخلي قاعدة ثورية تنتظر بشغف إعلان الثورة التحريرية، وظروف إقليمية ودولية ساعدت على انطلاق الثورة.

المطلوب: انطلاقا من الفقرة واعتمادا على ما درست، اكتب مقالا تاريخيا تبرز فيه:

1) الظروف الاقليمية والدولية لاندلاع الثورة الجزائرية.

2) المحطات الحاسمة في التحضير للثورة عام 1954.

الجغرافيا:

⇦ **الجزء الأول: (6 نقاط)**

"...تسعى **الشركات المتعددة الجنسيات** لاختيار العاملين ذوي الكفاءات، كما تسعى لتعبئة المدخرات من السوق العالمية بطرح **الأسهم** الخاصة بها في الأسواق المالية العالمية **واستقطاب** الاستثمار الاجنبي المباشر ..."

المصدر: مجلة الغدارة والاقتصاد العدد 85 (الشركات متعددة الجنسيات وأثرها على الدول النامية) جامعة بابل 2010 –ص 125 -

المطلوب: اشرح ما تحته خط في النص.

2) إليك جدولا يبرز الناتج الوطني الخام في بعض دول العالم (مليار دولار) 2015.

الدول	الو.م. أ	الصين	ألمانيا	الهند	تايوان	البرازيل
الناتج الوطني الخام	16616	14559	3312	5194	974	2515

المصدر: صور اقتصادية للعالم 2016

المطلوب: مثل أرقام الجدول بواسطة أعمدة بيانية وفق مقياس الرسم:

1 سم = 1000 مليار دولار، 1 سم = عمود.

الجزء الثاني: (4 نقاط)

تؤكد الأرقام والحقائق الاقتصادية المتداولة سيطرة العالم المتقدم على المبادلات التجارية العالمية، مما سمح له بفرض نظام اقتصادي عالمي يتماشى مع مصالحه.

المطلوب: انطلاقا من الفقرة واعتمادا على ما درست، اكتب مقالا جغرافيا تبرز فيه:

1) العوامل التي ساعدت العالم المتقدم على التحكم في التجارة العالمية.

2) انعكاسات الهيمنة التجارية على العالم الثالث.

الإجابة النموذجية:

التاريخ:

⇦ الجزء الأول:

1-مفهوم المصطلحات:

حركة التحرر: رد فعل ونضال وطني وشكل من أشكال الرفض والمقاومة من قبل الشعوب المستعمرة ضد الدول الاستعمارية، اتخذ عدة اشكال (سياسي – عسكري – الدمج بينهما).

الإستعمار التقليدي: الإستعمار الذي ظهر بعد الكشوفات والثورة الصناعية تزعمته بريطانيا –فرنسا استعملت فيه أساليب قمعية لفرض الهيمنة على شعوب أفريقيا وآسيا، تراجعت قوته بعد الحرب ع 2.

سياسة ملء الفراغ: سياسة اتبعتها الو م أ بعد نهاية الحرب العالمية الثانية وتراجع القوى الاستعمارية التقليدية (فرنسا-بريطانيا)، وهي أن تحل الولايات محل القوى التقليدية الاستعمارية في مستعمراتها تم تطبيقها في الهند الصينية بعد انهزام فرنسا في معركة ديان بيان فو.

2- تكملة جدول الاحداث:

الحدث	تاريخه
اختطاف الوفد الخارجي بالمغرب (القرصنة)	22 أكتوبر 1956
تأسيس المنظمة الفرانكفونية	20 مارس 1970
مشروع ايزنهاور	22 ماي 1972

⇦ الجزء الثاني:

المقدمة: الثورة التحريرية في الفاتح من نوفمبر 1954 وظروفها الداخلية والخارجية والعمل الجاد لتفجيرها.

العرض: **الظروف الاقليمية والدولية لاندلاع الثورة الجزائرية:**

أ- الاقليمية:

- نجاح الثورة المصرية 23 جويلية 1952 ببعدها التحرري القومي.
- اندلاع الكفاح التحرري في تونس والمغرب 1953.
- تأسيس جامعة الدول العربية 23 مارس 1945 ودعمها لحركات التحرر.

ب- الدولية:

- انتشار موجة التحرر والاستقلال المبكر للعديد من الدول (سوريا ولبنان 1946).
- انهزام فرنسا في معركة ديان بيان فو بالهند الصينية 7 ماي 1954.

- تراجع القوى الاستعمارية التقليدية بعد الح ع 2 وبروز قوى جديدة.
- المنظمات الدولية والاقليمية ودعمها لحركات التحرر (حركة عدم الانحياز – هيئة الأمم).

2-المحطات الحاسمة في التحضير للثورة عام 1954:

- تأسيس اللجنة الثورية للوحدة والعمل في 23 مارس 1954.
- اجتماع مجموعة 22 التاريخية في جوان 1954.
- اجتماع لجنة 6 اعضاء في 10 أكتوبر 1954 وتقسيم الجزائر إلى 05 مناطق.
- ميلاد جبهة التحرير الوطني وجيش التحرير الوطني 23 أكتوبر 1954.
- اندلاع الثورة الجزائرية 01 نوفمبر 1954.

الخاتمة: الظروف الإقليمية والدولية ساهمت في التعجيل بالعمل المسلح.

الجغرافيا:

⇦ الجزء الأول: 1-شرح المصطلحات:

الشركات متعددة الجنسيات: مؤسسات اقتصادية عالمية عابرة للقارت ذات انشطة مختلفة وذات قدرة كبيرة على التحكم في فروعها المنتشرة في دول العالم وبلورة نشاطها الاقتصادي، تتحكم في الإقتصاد العالمي.

الأسهم: عبارة عن أقساط وحصص مالية تتداول في الأسواق المالية العالمية يشارك بها أصحاب المؤسسات ورؤوس الأموال في مشاريع لتحقيق الأرباح.

الاستقطاب: عملية جذب للأموال والمشاريع والأفراد والشركات والمواد الأولية نحو دولة أو منطقة أو مدينة ما.

-2 التمثيل : (أعمدة بيانية) - الانجاز. - العنوان. - المفتاح.

⇦ الجزء الثاني:

المقدمة: المبادلات العالمية بين هيمنة العالم المتقدم وطموحات العالم الثالث.

العرض:

1-العوامل التي ساعدت العالم المتقدم على التحكم في التجارة العالمية:

- ضخامة الانتاج الصناعي 90 % والزراعي 65%.
- امتلاكها لوسائل النقل المختلفة والمتطورة.
- هيمنتها على المؤسسات المالية والمنظمات الاقتصادية العالمية.
- امتلاكها لاهم البورصات والشركات التجارية (عمالقة الحبوب – الأخوات السبع..).
- عملاتها القوية والقابلة للتحويل (الدولار – الين – اليورو..).
- قوة وسائل الدعاية والاشهار الذي يعطي قدرة تنافسية للسلع.

1- انعكاسات الهيمنة التجارية على العالم الثالث:

- تهميش دور العالم الثالث في المبادلات العالمية أقل من 20 %.
- تراجع نصيبه من التجارة العالمية.
- تراكم الديون مما يجهض حوض التنمية.
- الضغوطات السياسية والاقتصادية الممارسة ضد العالم الثالث.
- عدم قدرته على اتخاذ القرارات السيادية في مختلف المجالات.

الخاتمة: إعادة النظر في النظام التجاري العالمي وفق قواعد عادلة أصبح ضرورة ملحة، ولتحقيق ذلك على دول الجنوب التكتل فيما بينها.

إضغط هنا للإنتقال إلى قناة الأستاذ بورنان

الشعب الأدبية والتسيير

الشعب العلمية واللغات



عُكاشة
BOOKSTORE
We can help you
يمكننا أن نساعدك

FB: okacha bookstore مكتبــة عكــاشة

Okacka.bookstore@gmail.com

03 Rue de Stade Ouled Fayet-Alger- Algérie

Tel: 05 40 87 38 02| 06 72 38 82 02|05 60 42 09 93

03 شارع الملعب أولاد فايت الجزائر العاصمة